INFUSION NOTES

WHEN ONLY THE BEST WILL DO

UPSC IAS

सामान्य अध्ययन (हिंदी माध्यम)

(प्रारंभिक परीक्षा हेतु)

पिछले वर्षों के सोल्वड पेपर (व्याख्या सहित)

भाग – 1

वर्ष 2000 से 2010 तक

प्रस्तावना

प्रिय पाठकों, प्रस्तुत पुस्तक ***"UPSC IAS (सामान्य अध्ययन, हिंदी माध्यम) पिछले वर्षों के पेपर (व्याख्या सहित)"*** *को एक विभिन्न अपने - अपने विषयों में निपुण अध्यापकों एवं सहकर्मियों की टीम के द्वारा तैयार किया गया है। यह पुस्तक पाठकों को* ***संघ लोक सेवा आयोग (UPSC)*** *द्वारा आयोजित करायी जाने वाली परीक्षा* ***"सिविल सर्विस एग्जाम (CSE)"*** *में पूर्ण संभव मदद करेंगे।*

अंततः सतर्क प्रयासों के बावजूद नोट्स मे कुछ कमियों तथा त्रुटियों के रहने की संभावना हो सकती है। अतः आप सूची पाठकों का सुझाव सादर आमंत्रित हैं।

प्रकाशकः

INFUSION NOTES

जयपुर, 302029 (RAJASTHAN)

मो : 9887809083

ईमेल : contact@infusionnotes.com

वेबसाइट : https://www.infusionnotes.com

यूपीएससी सिविल सर्विसेज (प्रा) परीक्षा

सामान्य अध्ययन पेपर I

सॉल्वड पेपर 2000 TO 2010

निर्देश

1. इस परीक्षण पुस्तिका में 100 प्रश्नांश (प्रश्न) दिए गए हैं। प्रत्येक प्रश्नांश में चार उत्तर विकल्प दिए गए हैं। इनमें से एक उत्तर को चुन लें, जिसे आप उत्तर-पत्रक पर अंकित करना चाहते हैं। यदि आपको ऐसा लगे कि एक से अधिक प्रत्युत्तर सही हैं, तो उस प्रत्युत्तर को अंकित करें, जो आपको सर्वोत्तम लगे। प्रत्येक प्रश्नांश के लिए केवल एक ही प्रत्युत्तर चुनना है।
2. इससे पहले कि आप परीक्षण पुस्तिका के विभिन्न प्रश्नांशों के प्रत्युत्तर उत्तर-पत्रक पर अंकित करना शुरू करें, आपको प्रवेश प्रमाण-पत्र के साथ प्रेषित अनुदेशों के अनुसार कुछ विवरण उत्तर-पत्रक में देने हैं।
3. गलत उत्तरों के लिए दण्ड

- प्रत्येक प्रश्न के लिए चार वैकल्पिक उत्तर है। अभ्यर्थी द्वारा उस प्रत्येक प्रश्न के लिए दण्ड है, जिसका वह गलत उत्तर देता है। इसके लिए नियत किए गए अंकों का एक-तिहाई दण्ड के रूप में काटा जाएगा।
- यदि कोई अभ्यर्थी एक से अधिक उत्तर देता है, तो इसे गलत उत्तर माना जाएगा। यद्यपि दिए गए उत्तरों में से एक उत्तर सही होता है फिर भी उस प्रश्न के लिए उसी तरह का दण्ड दिया जाएगा।
- यदि अभ्यर्थी कोई प्रश्न हल नहीं करता है अर्थात् अभ्यर्थी द्वारा उत्तर नहीं दिया जाता है, तो उस प्रश्न के लिए कोई दण्ड नहीं दिया जाएगा।

INFUSION NOTES
WHEN ONLY THE BEST WILL DO

UPSC - 2000

1. सूची I को सूची II से सुमेलित करें और सूचियों के नीचे दिए गए कोड का उपयोग करके सही उत्तर चुनें

सूची I	सूची II
1.विकास कार्यक्रम	(A) संयुक्त राष्ट्र भारत मानव विकास रिपोर्ट
2. नेशनल काउंसिल ऑफ एप्लाइड इकोनॉमिक रिसर्च	(B) भारत विकास रिपोर्ट
3. इंदिरा गांधी विकास अनुसंधान संस्थान	(C) विश्व विकास रिपोर्ट
4. विश्व बैंक	(D) मानव विकास रिपोर्ट

कूट-

I-D, II-A, III-B, IV-C

I-D, II-B, III-A, IV-C

I-B, II-C, III-A, IV-D

I-B, II-A, III-D, IV-C

उत्तर - C

व्याख्या-

सूची I और सूची II का सही मिलान इस प्रकार है:

1. विकास कार्यक्रम - (B) भारत विकास रिपोर्ट
2. नेशनल काउंसिल ऑफ एप्लाइड इकोनॉमिक रिसर्च - (C) विश्व विकास रिपोर्ट
3. इंदिरा गांधी विकास अनुसंधान संस्थान - (A) संयुक्त राष्ट्र भारत मानव विकास रिपोर्ट
4. विश्व बैंक - (D) मानव विकास रिपोर्ट

भारत विकास रिपोर्ट आमतौर पर भारत में विकास कार्यक्रमों से जुड़ी है। नेशनल काउंसिल ऑफ एप्लाइड इकोनॉमिक रिसर्च आमतौर पर विश्व विकास रिपोर्ट से जुड़ा हुआ है। इंदिरा गांधी विकास अनुसंधान संस्थान संयुक्त राष्ट्र भारत मानव विकास रिपोर्ट से जुड़ा है। अंत में, विश्व बैंक अक्सर मानव विकास रिपोर्ट से जुड़ा होता है।

इसलिए, सही उत्तर है: I-B, II-C, III-A, IV-D

2. "..... लाखों श्रमिकों, पुरुषों और महिलाओं, जो वास्तव में काम करते हैं, में साझेदारी और सहयोगात्मक प्रदर्शन की भावना पैदा करें..." उपरोक्त अनुच्छेद किससे संबंधित है।

A. नियोजित विकास
B. सामुदायिक विकास
C. पंचायती राज व्यवस्था
D. एकीकृत विकास कार्यक्रम

उत्तर - B

व्याख्या- उपरोक्त अनुच्छेद सामुदायिक विकास से संबंधित है। सामुदायिक विकास एक प्रक्रिया है जिसका उद्देश्य स्थानीय संसाधनों को जुटाने और स्थानीय लोगों की भागीदारी के माध्यम से समुदाय में लोगों के जीवन की गुणवत्ता में सुधार करना है। यह विकास के लिए नीचे से ऊपर का दृष्टिकोण है, ऊपर से नीचे के दृष्टिकोण के विपरीत जो अक्सर सरकारों या अन्य बाहरी एजेंसियों द्वारा थोपा जाता है।

- परिच्छेद में "लाखों श्रमिकों, पुरुषों और महिलाओं, जो वास्तव में काम करते हैं, में साझेदारी और सहकारी प्रदर्शन की भावना पैदा करने की आवश्यकता का उल्लेख किया गया है।" यह सामुदायिक विकास का एक प्रमुख सिद्धांत है, जो यह है कि स्थानीय लोगों को विकास परियोजनाओं की योजना और कार्यान्वयन में शामिल किया जाना चाहिए। इससे यह सुनिश्चित करने में मदद मिलती है कि परियोजनाएँ समुदाय की आवश्यकताओं के लिए प्रासंगिक हैं और उनके सफल होने की अधिक संभावना है।
- भारत में सामुदायिक विकास का उपयोग 1950 के दशक की शुरुआत से किया जाता रहा है। पहला सामुदायिक विकास कार्यक्रम 1952 में शुरू किया गया था, और तब से इसे देश के सभी हिस्सों तक विस्तारित किया गया है। सामुदायिक विकास का भारत में लाखों लोगों के जीवन पर महत्वपूर्ण प्रभाव पड़ा है और इसने कई समुदायों में जीवन की गुणवत्ता में सुधार करने में मदद की है।

3. अध्यक्ष सदन के किसी सदस्य को बोलना बंद करने के लिए कह सकता है और दूसरे सदस्य को बोलने दे सकता है। इस घटना को कहा जाता है।

A. शिष्टाचार
B. मंजिल पार करना
C. पूछ-ताछ
D. मंजिल प्रदान करना

उत्तर - D

व्याख्या- दिए गए विकल्प, वर्णित घटना के लिए सही उत्तर है, जहां एक अध्यक्ष सदन के एक सदस्य को बोलना बंद करने और दूसरे सदस्य को बोलने देने के लिए कहता है, वास्तव में "संदर्भ छोड़ना" है। जब कोई अध्यक्ष किसी सदस्य से बोलने के लिए कहता है, तो इसका मतलब है कि वे उस सदस्य से अपना भाषण समाप्त करने और दूसरे सदस्य को बोलने की अनुमति देने का अनुरोध कर रहे हैं। सदस्यों के बीच निष्पक्ष और संतुलित भागीदारी सुनिश्चित करने के लिए संसदीय कार्यवाही में यह एक आम प्रथा है।

4. अध्यक्षीय भाषण देते समय कांग्रेस अध्यक्ष ने हिंदी भाषा के लिए रोमन लिपि लागू करने की वकालत की

A. महात्मा गांधी
B. जवाहर लाल नेहरू
C. अबुल कलाम आज़ाद
D. सुभाष चंद्र बोस

उत्तर - D

व्याख्या- सुभाष चंद्र बोस ने अध्यक्षीय भाषण देते हुए हिंदी भाषा के लिए रोमन लिपि लागू करने का प्रस्ताव रखा था. दिया गया उत्तर विकल्प 4 है, सुभाष चंद्र बोस।

विकल्पों का विश्लेषण:

महात्मा गांधी - वह भारतीय स्वतंत्रता आंदोलन में एक महत्वपूर्ण व्यक्ति थे और उन्होंने कांग्रेस अध्यक्ष के रूप में कार्य किया, लेकिन हिंदी के लिए रोमन लिपि की शुरुआत की वकालत करने का उनका कोई रिकॉर्ड नहीं है।

जवाहरलाल नेहरू - भारतीय राजनीति में एक केंद्रीय व्यक्ति और भारत के पहले प्रधान मंत्री। गांधी जी की तरह उन्होंने भी हिंदी के लिए रोमन लिपि लागू करने का प्रस्ताव नहीं रखा।

अबुल कलाम आज़ाद - एक विद्वान और भारतीय राष्ट्रीय कांग्रेस के वरिष्ठ नेता के रूप में, उनका झुकाव भारत के हिंदू और मुस्लिम समुदायों के बीच एकता को बढ़ावा देने और एक शिक्षा प्रणाली स्थापित करने की ओर अधिक था। उन्होंने हिन्दी के लिए रोमन लिपि की वकालत नहीं की।

सुभाष चंद्र बोस - सही उत्तर। कांग्रेस अध्यक्ष के रूप में अपने कार्यकाल के दौरान, बोस ने कई अन्य सुधारों के साथ-साथ हिंदी के लिए रोमन लिपि की शुरुआत का सुझाव दिया।

5. भारत के अटॉर्नी-जनरल के बारे में निम्नलिखित कथनों पर विचार करें:

1. उनकी नियुक्ति भारत के राष्ट्रपति द्वारा की जाती है।
2. उसके पास वही योग्यताएं होनी चाहिए जो सर्वोच्च न्यायालय के न्यायाधीश के लिए आवश्यक हैं।
3. उसे संसद के किसी भी सदन का सदस्य होना चाहिए।
4. संसद द्वारा महाभियोग चलाकर उसे हटाया जा सकता है।

इनमें से कौन सा कथन सही है?

(a) I और II

(b) I और III

(c) II, III और IV

(d) III और IV

उत्तर – A

व्याख्या-

I. वह भारत के राष्ट्रपति द्वारा नियुक्त किया जाता है:

यह कथन सही है. भारत के अटॉर्नी-जनरल की नियुक्ति भारत के राष्ट्रपति द्वारा की जाती है। भारतीय संविधान के अनुच्छेद 76(1) के तहत अटॉर्नी-जनरल की नियुक्ति का अधिकार राष्ट्रपति के पास है।

2. उसके पास वही योग्यताएं होनी चाहिए जो सर्वोच्च न्यायालय के न्यायाधीश के लिए आवश्यक हैं:

यह कथन भी सही है. भारतीय संविधान के अनुच्छेद 76(1) के अनुसार, भारत के अटॉर्नी-जनरल के पास वही योग्यताएँ होनी चाहिए जो सर्वोच्च न्यायालय के न्यायाधीश के लिए आवश्यक हैं। इसमें भारत का नागरिक होना और कम से कम पांच साल तक उच्च न्यायालय का न्यायाधीश होना या कम से कम दस साल तक उच्च न्यायालय का वकील होना या एक प्रतिष्ठित न्यायविद् होना शामिल है।

3. उसे संसद के किसी भी सदन का सदस्य होना चाहिए:

यह कथन ग़लत है. भारत के अटॉर्नी-जनरल के लिए संसद के किसी भी सदन का सदस्य होने की कोई विशेष आवश्यकता नहीं है। सरकार के मंत्रियों के विपरीत, अटॉर्नी-जनरल को संसद का सदस्य होना आवश्यक नहीं है।

4. उन्हें संसद द्वारा महाभियोग द्वारा हटाया जा सकता है:

यह कथन भी गलत है. भारत के अटॉर्नी-जनरल का कार्यकाल संसद द्वारा महाभियोग के अधीन नहीं होता है। अटॉर्नी-जनरल राष्ट्रपति की इच्छा पर कार्य करता है और राष्ट्रपति द्वारा उसे किसी भी समय पद से हटाया जा सकता है।

इसलिए, सही कथन I हैं। वह भारत के राष्ट्रपति द्वारा नियुक्त किया जाता है और II उसके पास वही योग्यताएं होनी चाहिए जो सर्वोच्च न्यायालय के न्यायाधीश के लिए आवश्यक हैं।

6. निम्नलिखित में से किस मध्याह्न रेखा के साथ भारत को नई सहस्राब्दी के सूर्योदय की पहली रोशनी का अनुभव हुआ?

A. 2° 30' डब्ल्यू

B. 82° 30' पूर्व

C. 92° 30' डब्ल्यू

D. 92° 30' पूर्व

उत्तर – D

व्याख्या- प्रश्न मेरिडियन की भौगोलिक अवधारणा को संदर्भित करता है, जिसे देशांतर रेखाओं के रूप में भी जाना जाता है, जो उत्तर से दक्षिणी ध्रुव तक चलती हैं। ये मेरिडियन दुनिया भर में समय क्षेत्र निर्धारित करने में मदद करते हैं।

विकल्प I और 3 गलत हैं क्योंकि ये पश्चिमी देशांतर दर्शाते हैं, और भारत पूर्वी गोलार्ध में स्थित है।

विकल्प 2 भारत के मानक मध्याह्न रेखा को संदर्भित करता है, जो 82° 30' पूर्व है, लेकिन यह वह जगह नहीं है जहां भारत ने नई सहस्राब्दी के पहले सूर्योदय का अनुभव किया था।

विकल्प 4 सही है क्योंकि नई सहस्राब्दी के सूर्योदय की पहली किरण भारत के सबसे पूर्वी मध्याह्न रेखा, जो 92° 30' पूर्व, पर अरुणाचल प्रदेश में हुई थी। अतः, विकल्प 4 वास्तव में सही उत्तर है।

7. राज्यों के वित्त मंत्रियों की स्थायी समिति ने जनवरी 2000 में राज्यों के संबंध में एक समान दरों की सिफारिश की

A. मूल्य वर्धित कर

B. बिक्री कर

C. स्टांप शुल्क और पंजीकरण शुल्क

D. कृषि आयकर

उत्तर – B

व्याख्या- प्रश्न उस कर के बारे में पूछता है जिसे राज्यों के वित्त मंत्रियों की स्थायी समिति ने जनवरी 2000 में राज्यों में एक समान दरें रखने की सलाह दी थी।

विकल्प I – मूल्य वर्धित कर: यह एक प्रकार का उपभोग कर है जो किसी उत्पाद पर तब लगाया जाता है जब उत्पादन के चरण और अंतिम बिक्री पर मूल्य जोड़ा जाता है। समिति ने इसके लिए एक समान दरों की सिफारिश नहीं की।

विकल्प 2 – बिक्री कर: यह बिक्री पर या बिक्री से प्राप्तियों पर लगने वाला कर है। सही उत्तर बिक्री कर है, जो दर्शाता है कि स्थायी समिति ने सभी राज्यों में एक समान बिक्री कर दर रखने का सुझाव दिया है।

विकल्प 3 – स्टांप शुल्क और पंजीकरण शुल्क: ये कर हैं जो क्रमशः दस्तावेजों और लेनदेन पर लागू होते हैं। समिति ने इनके लिए मानकीकृत दरें प्रस्तावित नहीं कीं।

विकल्प 4 – कृषि आयकर: यह कृषि से प्राप्त आय पर लगने वाला कर है। समिति ने इस कर के लिए एक समान दरों का भी सुझाव नहीं दिया।

8. भारत के विभाजन के समय, ब्रिटिश भारत का निम्नलिखित में से कौन सा प्रांत एकजुट और स्वतंत्र अस्तित्व की योजना के साथ आगे आया था?

A. पंजाब
B. असम
C. बंगाल
D. बिहार

उत्तर - A

व्याख्या- भारत के विभाजन के समय, पंजाब प्रांत एकजुट और स्वतंत्र अस्तित्व की योजना के साथ आगे आया।

- 1947 में भारत के विभाजन पर चर्चा और बातचीत के दौरान, पंजाब के नेताओं ने एक एकजुट और स्वतंत्र पंजाब का विचार प्रस्तावित किया जो भारत और पाकिस्तान दोनों से अलग रहेगा। योजना में पंजाब की अपनी सरकार और प्रशासन के साथ एक अलग और स्वायत्त राज्य के रूप में कल्पना की गई थी।
- हालाँकि, प्रस्ताव के बावजूद, विभाजन के परिणामस्वरूप अंततः पंजाब दो अलग-अलग क्षेत्रों में विभाजित हो गया: पश्चिमी पंजाब, जो पाकिस्तान का हिस्सा बन गया, और पूर्वी पंजाब, जो भारत का हिस्सा बन गया। इस विभाजन के कारण क्षेत्र में बड़े पैमाने पर पलायन, हिंसा और महत्वपूर्ण उथल-पुथल हुई।
- इसलिए, भारत के विभाजन के समय, पंजाब वह प्रांत था जो एकजुट और स्वतंत्र अस्तित्व की योजना के साथ आगे आया।

9. निम्नलिखित पदाधिकारियों पर विचार करें:

I. कैबिनेट सचिव
II. मुख्य चुनाव आयुक्त
III. केंद्रीय कैबिनेट मंत्री
IV. भारत के मुख्य न्यायाधीश

वरीयता क्रम में उनका सही क्रम है

(a) III, IV, II, I
(b) IV, III, I, II
(c) IV, III, II, I
(d) III, IV, I, II

उत्तर - C

व्याख्या-

4. भारत के मुख्य न्यायाधीश:

भारत के मुख्य न्यायाधीश का देश की न्यायिक व्यवस्था में सर्वोच्च स्थान होता है। न्यायपालिका के प्रमुख के रूप में, भारत के मुख्य न्यायाधीश को वरीयता क्रम में सर्वोच्च प्राथमिकता दी जाती है।

3. केंद्रीय कैबिनेट मंत्री:

केंद्रीय कैबिनेट मंत्री सरकार के वरिष्ठ सदस्य होते हैं जिनके पास मंत्री पद होता है और वे विभिन्न विभागों और क्षेत्रों के लिए जिम्मेदार होते हैं। उन्हें भारत के मुख्य न्यायाधीश के बाद अगले स्तर की प्राथमिकता दी जाती है।

2. मुख्य चुनाव आयुक्त:

मुख्य चुनाव आयुक्त भारत के चुनाव आयोग का प्रमुख होता है, जो देश में स्वतंत्र और निष्पक्ष चुनाव कराने के लिए जिम्मेदार है। केंद्रीय कैबिनेट मंत्रियों के बाद मुख्य चुनाव आयुक्त को प्राथमिकता दी जाती है।

1. कैबिनेट सचिव:

कैबिनेट सचिव देश में सर्वोच्च रैंकिंग वाला सिविल सेवक है और भारत सरकार के प्रशासनिक प्रमुख के रूप में कार्य करता है। जबकि कैबिनेट सचिव एक महत्वपूर्ण पद है, पदाधिकारी को सूचीबद्ध विकल्पों में सबसे कम प्राथमिकता दी जाती है।

इसलिए, वरीयता क्रम में सही क्रम है: IV. भारत के मुख्य न्यायाधीश, III. केंद्रीय कैबिनेट मंत्री, II. मुख्य चुनाव आयुक्त, और I कैबिनेट सचिव।

10. भारत में वित्त आयोग का प्राथमिक कार्य है

A. केंद्र और राज्यों के बीच राजस्व वितरित करें
B. वार्षिक बजट तैयार करें
C. वित्तीय मामलों पर राष्ट्रपति को सलाह देना
D. संघ और राज्य सरकारों के विभिन्न मंत्रालयों को धन आवंटित करना

उत्तर - A

व्याख्या- भारत में वित्त आयोग का प्राथमिक कार्य केंद्र और राज्यों के बीच राजस्व वितरित करना है।

- वित्त आयोग भारतीय संविधान के अनुच्छेद 280 के तहत स्थापित एक संवैधानिक निकाय है। इसकी मुख्य भूमिका केंद्र सरकार और राज्य सरकारों के बीच वित्तीय संसाधनों के वितरण की सिफारिश करना है।
- वित्त आयोग विभिन्न कारकों की जांच करता है जैसे सरकार की वित्तीय स्थिति, राजस्व आवश्यकताएं और व्यय पैटर्न, राज्यों की राजकोषीय क्षमता और अन्य प्रासंगिक विचार। अपने विश्लेषण के आधार पर, आयोग केंद्र और राज्यों के बीच कर राजस्व, सहायता अनुदान और अन्य वित्तीय संसाधनों के बंटवारे पर सिफारिशें करता है।
- आयोग राज्यों के बीच संतुलित विकास और वित्तीय स्वायत्तता को बढ़ावा देने के लिए वित्तीय संसाधनों का निष्पक्ष और समान वितरण सुनिश्चित करने में महत्वपूर्ण भूमिका निभाता है।
- इसलिए, भारत में वित्त आयोग का प्राथमिक कार्य केंद्र और राज्यों के बीच राजस्व वितरित करना है।

11. वह राज्य जहां लोकसभा में अनुसूचित जनजातियों के लिए सबसे अधिक सीटें आरक्षित हैं।

A. बिहार
B. गुजरात
C. उत्तर प्रदेश
D. मध्य प्रदेश

उत्तर - D

व्याख्या- लोकसभा में अनुसूचित जनजाति (एसटी) के लिए आरक्षित सीटों की सबसे बड़ी संख्या वाला राज्य मध्य प्रदेश है।

- लोकसभा में अनुसूचित जनजाति के लिए सबसे अधिक सीटें मध्य प्रदेश में आरक्षित हैं। लोकसभा में एसटी के लिए सीटों का आरक्षण प्रत्येक राज्य में एसटी आबादी के अनुपात के आधार पर निर्धारित किया जाता है।

12. निम्नलिखित कथनों पर विचार करें:

1. ज्वार-भाटा नेविगेशन और मछली पकड़ने में बहुत मददगार होते हैं।
2. उच्च ज्वार बड़े जहाजों को बंदरगाह में सुरक्षित रूप से प्रवेश करने या छोड़ने में सक्षम बनाता है।
3. ज्वार बंदरगाहों में गाद जमने से रोकता है।
4. कांडला और डायमंड हार्बर ज्वारीय बंदरगाह हैं।

इनमें से कौन सा कथन सही है?

A. I और IV
B. II, III और IV
C. I, II और III
D. I, II, III और IV

उत्तर - B

व्याख्या

दिए गए विकल्पों में से सही कथन हैं:

1. ज्वार-भाटा नौवहन और मछली पकड़ने में बहुत मददगार होते हैं।

2. उच्च ज्वार बड़े जहाजों को बंदरगाह में सुरक्षित रूप से प्रवेश करने या छोड़ने में सक्षम बनाता है।

3. कांडला और डायमंड हार्बर ज्वारीय बंदरगाह हैं।

इसलिए, सही उत्तर है: I, II, और IV

1. ज्वार-भाटा नौवहन और मछली पकड़ने में बहुत मददगार होते हैं:

यह कथन सही है. ज्वार नेविगेशन में महत्वपूर्ण भूमिका निभाते हैं क्योंकि उनका उपयोग पानी की गहराई और धाराओं को निर्धारित करने के लिए किया जा सकता है, जो जहाजों और नावों के लिए सुरक्षित मार्ग में सहायता करते हैं। ज्वार-भाटा समुद्री प्रजातियों की गति और व्यवहार को प्रभावित करके मछली पकड़ने को भी प्रभावित करते हैं।

2. उच्च ज्वार बड़े जहाजों को बंदरगाह में सुरक्षित रूप से प्रवेश करने या छोड़ने में सक्षम बनाता है:

यह कथन सही है. उच्च ज्वार के दौरान, बंदरगाह में पानी का स्तर बढ़ जाता है, जिससे बड़े जहाजों को सुरक्षित रूप से नेविगेट करने के लिए पर्याप्त गहराई मिलती है। उच्च ज्वार जहाजों को उथले क्षेत्रों या बाधाओं का सामना किए बिना बंदरगाह में प्रवेश करने या छोड़ने की अनुमति देता है।

3. ज्वार बंदरगाहों में गाद जमा होने से रोकता है:

यह कथन ग़लत है. ज्वार बंदरगाहों में गाद जमा होने से नहीं रोकता है। वास्तव में, ज्वार कुछ मामलों में तलछट और गाद की गति में योगदान कर सकता है। बंदरगाहों में गाद को रोकने के लिए ड्रेजिंग, तलछट प्रबंधन और इंजीनियरिंग हस्तक्षेप जैसे अन्य कारकों का उपयोग किया जाता है।

4. कांडला और डायमंड हार्बर ज्वारीय बंदरगाह हैं:

यह कथन सही है. गुजरात में कांडला बंदरगाह और पश्चिम बंगाल में डायमंड हार्बर ज्वारीय बंदरगाहों के उदाहरण हैं। ज्वारीय बंदरगाह उन क्षेत्रों में स्थित हैं जहां ज्वार का जल स्तर पर महत्वपूर्ण प्रभाव पड़ता है, जिससे जहाजों को ज्वार की स्थिति के आधार पर बंदरगाह में प्रवेश करने या बाहर निकलने की अनुमति मिलती है।

इसलिए, सही कथन I, II और IV हैं।

13. भारतीय मानव विकास रिपोर्ट प्रत्येक गाँव के लिए नमूना नहीं देती है-

A. बुनियादी ढाँचा और सुविधाएँ सूचकांक
B. शिक्षा संबंधी सूचकांक
C. स्वास्थ्य संबंधी सूचकांक
D. बेरोज़गारी संबंधित सूचकांक

उत्तर - D

व्याख्या - भारतीय मानव विकास रिपोर्ट प्रत्येक चयनित गांव के लिए शिक्षा, स्वास्थ्य और बुनियादी ढांचे से संबंधित विस्तृत उपाय और सूचकांक प्रदान करती है।

विकल्प 1, अवसंरचना और सुविधाएं सूचकांक, गलत है क्योंकि रिपोर्ट में इस विषय पर डेटा शामिल है। इसमें सड़क संपर्क, बिजली तक पहुंच, जल स्रोत आदि जैसे पहलू शामिल हैं।

विकल्प 2, शिक्षा संबंधी सूचकांक, भी गलत है। रिपोर्ट अन्य विषयों के अलावा शैक्षिक सुविधाओं, वयस्क साक्षरता दर, नामांकन संख्या और ड्रॉप-आउट दर का विवरण देने के लिए एक महत्वपूर्ण हिस्सा समर्पित करती है।

विकल्प 3, स्वास्थ्य संबंधी सूचकांक, उत्तर नहीं है क्योंकि रिपोर्ट में महत्वपूर्ण स्वास्थ्य संबंधी विशेषताओं जैसे

चिकित्सा सुविधाओं तक पहुंच, स्वास्थ्य संकेतक, जनसंख्या आयु वितरण आदि पर डेटा शामिल है।

विकल्प 4, बेरोज़गारी संबंधित सूचकांक, सही उत्तर है। हालाँकि रिपोर्ट आय और आजीविका पर विभिन्न संकेतक प्रदान करती है, लेकिन यह विशेष रूप से ग्रामीण स्तर पर बेरोजगारी को मापती नहीं है। इसलिए, रिपोर्ट में प्रत्येक नमूना गांव के लिए कोई व्यापक 'बेरोजगारी संबंधित सूचकांक' प्रदान नहीं किया गया है।

14. सूची I को सूची II से सुमेलित करें और सूचियों के नीचे दिए गए कोड का उपयोग करके सही उत्तर चुनें-

सूची-I (महासागरीय गर्त)	सूची-II (स्थान)
1. अलेउतियन	(A) हिंद महासागर
2. केरमाडेक	(B) उत्तरी प्रशांत महासागर
3. सुंडा	(C) दक्षिण प्रशांत महासागर
4. एस. सैंडविच	(D)दक्षिण अटलांटिक महासागर

A. I-B, II-D, III-A, IV-C

B. I-B, II-C, III-A, IV-D

C. I-A, II-C, III-B, IV-D

D. I-A, II-D, III-B, IV-C

उत्तर – (B)

व्याख्या-

सही उत्तर विकल्प 2 है: I-B, II-C, III-A, IV-D।

- यह विकल्प सूची I (महासागरीय गर्त) से सूची II (स्थान) से सही ढंग से मेल खाता है।
- अन्य विकल्प इन खाइयों और उनके संबंधित स्थानों की गलत जोड़ी प्रदान करते हैं। इसलिए, उत्तर 2: IB, II-C, III-A, IV-D सही है।

15. भारत के विखंडन की बाल्कन योजना किसके दिमाग की उपज थी?

A. डब्ल्यू चर्चिल

B. एमए जिन्ना

C. लॉर्ड माउंटबेटन

D. वीपी मेनन

उत्तर - C

व्याख्या- भारत के विखंडन के लिए बाल्कन योजना भारतीय स्वतंत्रता की अवधि के दौरान प्रस्तावित एक विचार था।

विंस्टन चर्चिल द्वितीय विश्व युद्ध के दौरान एक ब्रिटिश राजनीतिज्ञ और प्रधान मंत्री थे। वह सीधे तौर पर बाल्कन योजना से जुड़े नहीं थे जिसका उद्देश्य भारत का विखंडन करना था।

एमए जिन्ना पाकिस्तान के निर्माण में एक प्रमुख नेता थे, लेकिन बाल्कन योजना, जिसका उद्देश्य भारत को बाल्कन प्रायद्वीप की तरह छोटे राज्यों में विभाजित करना था, उनका विचार नहीं था।

लॉर्ड माउंटबेटन अंतिम ब्रिटिश वायसराय और स्वतंत्र भारत के पहले गवर्नर-जनरल थे। वह बाल्कन योजना के पीछे का व्यक्ति था। उनकी प्रारंभिक योजना भारत की एकता को बनाए रखने की थी, लेकिन जैसे-जैसे सांप्रदायिक हिंसा बढ़ी, उन्होंने भारत के विभाजन का प्रस्ताव रखा, जिसे बाद में छोड़ दिया गया।

वीपी मेनन एक भारतीय सिविल सेवक थे और उन्होंने भारत की स्वतंत्रता में महत्वपूर्ण भूमिका निभाई। हालाँकि, वह बाल्कनीकरण योजना के निर्माण से जुड़ा नहीं था।

अत; सही उत्तर लॉर्ड माउंटबेटन (विकल्प 3) है।

16. सूची I को सूची II से सुमेलित करें और सूचियों के नीचे दिए गए कोड का उपयोग करके सही उत्तर चुनें

सूची-I (संस्थान)	सूची- II (स्थान)
I. केंद्रीय उच्च तिब्बती अध्ययन संस्थान	(A) हैदराबाद
द्वितीय. इंदिरा गांधी विकास अनुसंधान संस्थान	(B) मुंबई
तृतीय. राष्ट्रीय मानसिक स्वास्थ्य और तंत्रिका-विज्ञान संस्थान	(C) बैंगलोर
चतुर्थ. केंद्रीय अंग्रेजी और विदेशी भाषा संस्थान	(D) धर्मशाला
	(E)वाराणसी

कूट-

(a) I-E, II-C, III-D, IV-A

(b) I-E, II-B, III-C, IV-A

(c) I-C, II-B, III-D, IV-E

(d) I-D, II-E, III-A, IV-B

उत्तर – (B)

व्याख्या-

प्रश्न का सही उत्तर विकल्प 2 है।

17. भारत में आर्थिक उदारीकरण की शुरुआत हुई

A. औद्योगिक लाइसेंसिंग नीति में बड़े बदलाव
B. भारतीय रुपये की परिवर्तनीयता
C. प्रत्यक्ष विदेशी निवेश के लिए प्रक्रियात्मक औपचारिकताओं को दूर करना
D. कर दरों में उल्लेखनीय कमी

उत्तर – (A)

व्याख्या- भारत में आर्थिक उदारीकरण की शुरुआत औद्योगिक लाइसेंसिंग नीति में व्यापक बदलाव के साथ हुई।

- 1990 के दशक की शुरुआत में, भारत ने अपनी अर्थव्यवस्था को उदार बनाने और खोलने के उद्देश्य से आर्थिक सुधारों की एक श्रृंखला शुरू की। ये सुधार भुगतान संतुलन संकट और भारतीय अर्थव्यवस्था को पुनर्जीवित करने की आवश्यकता के जवाब में पेश किए गए थे।
- आर्थिक उदारीकरण के प्रमुख पहलुओं में से एक औद्योगिक लाइसेंसिंग नीति में किए गए महत्वपूर्ण बदलाव थे। सुधारों से पहले, भारत में औद्योगिक लाइसेंसिंग की एक जटिल प्रणाली थी जो उद्योगों की स्थापना और विस्तार को बहुत अधिक विनियमित और प्रतिबंधित करती थी। लाइसेंसिंग प्रणाली के लिए व्यवसायों को सरकारी मंजूरी प्राप्त करने और विभिन्न मानदंडों को पूरा करने की आवश्यकता होती है, जिससे अत्यधिक नियंत्रित और संरक्षित अर्थव्यवस्था बनती है।
- आर्थिक सुधारों के हिस्से के रूप में, सरकार ने लाइसेंसिंग व्यवस्था को खत्म करने और अधिक औद्योगिक स्वतंत्रता को बढ़ावा देने के लिए नीतियां लागू कीं। औद्योगिक डी-लाइसेंसिंग की प्रक्रिया शुरू हुई, जिससे कई क्षेत्रों में व्यवसायों को सरकारी अनुमोदन और परमिट की आवश्यकता के बिना संचालित करने की अनुमति मिल गई। इस बदलाव का उद्देश्य उद्यमशीलता को प्रोत्साहित करना, प्रतिस्पर्धा बढ़ाना और घरेलू और विदेशी निवेश को आकर्षित करना है।
- जबकि विकल्पों में उल्लिखित अन्य पहलू, जैसे भारतीय रुपये की परिवर्तनीयता, विदेशी प्रत्यक्ष निवेश के लिए प्रक्रियात्मक औपचारिकताएं और कर दरों में कमी भी आर्थिक सुधारों का हिस्सा थे, औद्योगिक लाइसेंसिंग नीति में महत्वपूर्ण बदलावों ने आर्थिक विकास के शुरुआती बिंदु को चिह्नित किया। भारत में उदारीकरण.
- इसलिए, सही कथन यह है कि भारत में आर्थिक उदारीकरण औद्योगिक लाइसेंसिंग नीति में पर्याप्त बदलाव के साथ शुरू हुआ।

18. भारत में सैन्य गवर्नरशिप की प्रथा सबसे पहले किसके द्वारा शुरू की गई थी?

A. यूनानियों
B. शक
C. पार्थियन
D. मुगलों

उत्तर – (A)

व्याख्या- भारत में सैन्य गवर्नरशिप की प्रथा सबसे पहले यूनानियों द्वारा शुरू की गई थी।

- यूनानियों, विशेष रूप से मैसेडोनियन शासक अलेक्जेंडर महान ने, चौथी शताब्दी ईसा पूर्व में भारतीय उपमहाद्वीप के उत्तर-पश्चिमी हिस्सों पर आक्रमण किया। सिकंदर की विजय के बाद, उसके सेनापतियों और उत्तराधिकारियों, जिन्हें डायडोची के नाम से जाना जाता है, ने वर्तमान पाकिस्तान और उत्तरी भारत के कुछ हिस्सों सहित विभिन्न क्षेत्रों में अपना शासन स्थापित किया।
- ग्रीक उत्तराधिकारियों, जिन्हें सेल्यूसिड्स के नाम से जाना जाता है, ने इन विजित क्षेत्रों पर शासन और प्रशासन करने के लिए सैन्य गवर्नर या रणनीतिकार नियुक्त करने की प्रथा को अपनाया। इन सैन्य गवर्नरों के पास सैन्य और प्रशासनिक दोनों अधिकार थे और वे नियंत्रण बनाए रखने और कर एकत्र करने के लिए जिम्मेदार थे।
- सैन्य गवर्नरशिप की अवधारणा को भारत में बाद के विदेशी आक्रमणकारियों और शासकों, जैसे शक, पार्थियन और बाद में मुगलों द्वारा विकसित और जारी रखा गया। हालाँकि, यह प्रथा शुरू में सिकंदर महान और उसके उत्तराधिकारियों के नेतृत्व में यूनानियों द्वारा शुरू की गई थी।
- इसलिए, सही उत्तर यूनानी है।

19. भारतीय राष्ट्रीय कांग्रेस के बारे में निम्नलिखित कथनों पर विचार करें।

1. सरोजिनी नायडू कांग्रेस की अध्यक्ष बनने वाली पहली महिला थीं।
2. सीआर दास जब कांग्रेस के अध्यक्ष के रूप में कार्य कर रहे थे तब वे जेल में थे।
3. कांग्रेस के अध्यक्ष बनने वाले पहले ब्रिटिश एलन ऑक्टेवियन ह्यूम थे।
4. 1894 में अल्फ्रेड वेब कांग्रेस के अध्यक्ष थे।

इनमें से कौन सा कथन सही है?

A. i और iii
B. ii और iv
C. ii, iii और iv
D. i, ii, iiiऔर iv

उत्तर – (B)

व्याख्या-

विकल्प 1 ग़लत है. सरोजिनी नायडू कांग्रेस की अध्यक्ष बनने वाली पहली भारतीय महिला थीं, लेकिन पहली महिला नहीं थीं। यह सम्मान ब्रिटिश महिला एनी बेसेंट को जाता है।

विकल्प 2 सही है. 1922 में कारावास के दौरान सीआर दास कांग्रेस के अध्यक्ष थे। अल्फ्रेड वेब वास्तव में 1894 में कांग्रेस के अध्यक्ष थे।

विकल्प 3 ग़लत है. हालाँकि II और IV सही हैं, III नहीं है। एलन ऑक्टेवियन ह्यूम भारतीय राष्ट्रीय कांग्रेस के संस्थापक थे लेकिन उन्होंने कभी इसके अध्यक्ष के रूप में कार्य नहीं किया।

विकल्प 4 गलत है, सरोजिनी नायडू पहली महिला राष्ट्रपति नहीं थीं और ह्यूम ने कभी राष्ट्रपति के रूप में कार्य नहीं किया।

20. नीचे सूचीबद्ध नामों के साथ ए, बी, सी और डी के रूप में लेबल किए गए जल निकासी बेसिनों का मिलान करें और जल निकासी बेसिनों के नामों के नीचे दिए गए कोड का उपयोग करके सही उत्तर चुनें। जल निकासी बेसिनों के नाम:

1. गंगा-ब्रह्मपुत्र
2. सिंधु
3. पराना
4. ज़म्बेजी

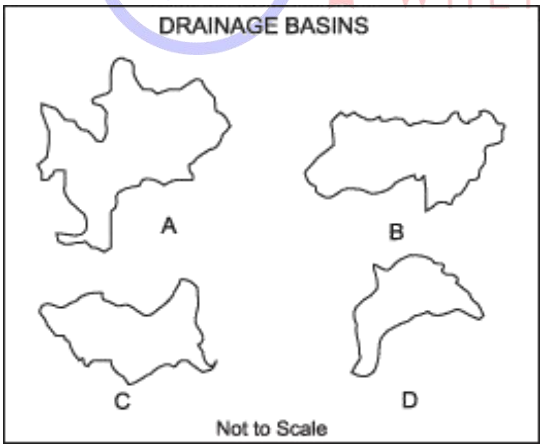

A. A-3, B-1, C-2, D-4
B. A-1, B-3, C-4, D-2
C. A-1, B-3, C-2, D-4
D. A-3, B-1, C-4, D-2

उत्तर – (C)

व्याख्या-

गंगा-ब्रह्मपुत्र: गंगा-ब्रह्मपुत्र बेसिन भारतीय उपमहाद्वीप के उत्तरी भाग में स्थित है और इसमें गंगा और ब्रह्मपुत्र नदी प्रणालियाँ शामिल हैं।

सिंधु: सिंधु बेसिन भारतीय उपमहाद्वीप के उत्तर-पश्चिमी भाग में स्थित है और इसमें सिंधु नदी और उसकी सहायक नदियाँ शामिल हैं।

पराना: पराना बेसिन दक्षिण अमेरिका में स्थित है और इसमें पराना नदी और उसकी सहायक नदियाँ शामिल हैं। यह दक्षिण अमेरिका की प्रमुख नदी प्रणालियों में से एक है।

ज़म्बेजी: ज़म्बेजी बेसिन दक्षिणी अफ्रीका में स्थित है और इसमें ज़म्बेजी नदी और उसकी सहायक नदियाँ शामिल हैं। यह क्षेत्र की एक महत्वपूर्ण नदी प्रणाली है।

इसलिए, सही उत्तर A-1, B-3, C-2, D-4 है।

21. वह राग है जो प्रातः काल गाया जाता है

A. टोडी
B. दरबारी
C. भोपाली
D. भीमपलासी

उत्तर – (A)

व्याख्या – पारंपरिक रूप से सुबह के समय गाया जाने वाला राग राग तोड़ी है।

राग टोडी एक शास्त्रीय भारतीय राग है जो टोडी थाट (संगीत पैमाने) से संबंधित है। यह सुबह के समय से जुड़ा हुआ है और इसे एक शांत और ध्यानपूर्ण राग माना जाता है। यह शांति और शांति की भावना पैदा करता है और अक्सर भोर से पहले या सुबह के संगीत समारोहों में इसका प्रदर्शन किया जाता है।

इसलिए, सही उत्तर टोडी है।

22. गिल्ट-एज्ड बाज़ार का मतलब है

A. सर्राफा बाजार
B. सरकारी प्रतिभूतियों का बाजार
C. बंदूकों का बाज़ार
D. शुद्ध धातुओं का बाज़ार

उत्तर – (B)

व्याख्या- गिल्ट-एज्ड बाज़ार का तात्पर्य सरकारी प्रतिभूतियों के बाज़ार से है।

- सरकारी प्रतिभूतियाँ, जिन्हें गिल्ट-एज प्रतिभूतियों के रूप में भी जाना जाता है, जनता से धन उधार लेने के लिए सरकार द्वारा जारी किए गए ऋण साधन हैं। इन प्रतिभूतियों को सुरक्षित और कम जोखिम वाला निवेश माना जाता है क्योंकि ये सरकार द्वारा समर्थित हैं। वे आम तौर पर निश्चित ब्याज भुगतान की पेशकश करते हैं और उनकी परिपक्वता तिथि निश्चित होती है।
- "गिल्ट-एज्ड" शब्द की उत्पत्ति सरकारी प्रतिभूतियों के प्रमाणपत्रों को गिल्ट (सोने) बॉर्डर के साथ मुद्रित करने या किनारे करने की प्रथा से हुई है, जो उनकी उच्च-गुणवत्ता और सुरक्षित प्रकृति को दर्शाता है।

- निवेशक, जैसे बैंक, वित्तीय संस्थान और व्यक्ति, सरकारी प्रतिभूतियों को खरीदने और बेचने के लिए गिल्ट-एज बाजार में भाग लेते हैं। यह बाज़ार सरकारी बांड और सरकार द्वारा जारी अन्य निश्चित आय उपकरणों में व्यापार और निवेश के लिए एक मंच प्रदान करता है।
- इसलिए, गिल्ट-एज बाजार की सही व्याख्या सरकारी प्रतिभूतियों का बाजार है।

23. सिकंदर के आक्रमण के समय उत्तर भारत पर निम्नलिखित में से कौन सा राजवंश शासन कर रहा था?

(A) नंद (B) मौर्य
(C) शुंग (D) कण्व

उत्तर – (A)

व्याख्या- 326 ईसा पूर्व में सिकंदर के आक्रमण के समय, भारत का उत्तरी भाग नंद वंश के शासन के अधीन था, जो विकल्प 1 है। इसीलिए इसे सही उत्तर के रूप में चुना गया है। अन्य विकल्पों की ओर बढ़ते हुए: विकल्प 2, मौर्य राजवंश वास्तव में नंद वंश के पतन के बाद सत्ता में आया और मौर्य साम्राज्य के संस्थापक चंद्रगुप्त मौर्य को नंदों को उखाड़ फेंकने का श्रेय दिया जाता है। जहां तक विकल्प 3, शुंग राजवंश और विकल्प 4, कण्व राजवंश का सवाल है, ये दोनों मौर्य राजवंश के अंत के बहुत बाद में सत्ता में आए। इसलिए, विकल्प 2, 3 और 4 में से कोई भी सही उत्तर नहीं हो सकता है।

24. नीचे सूचीबद्ध अंतर्राष्ट्रीय घटनाओं को दिए गए मानचित्र में उनके संबंधित स्थानों 1,2, 3, 4 और 5 के साथ मिलान करें और सूची के नीचे दिए गए कोड का उपयोग करके सही उत्तर चुनें-

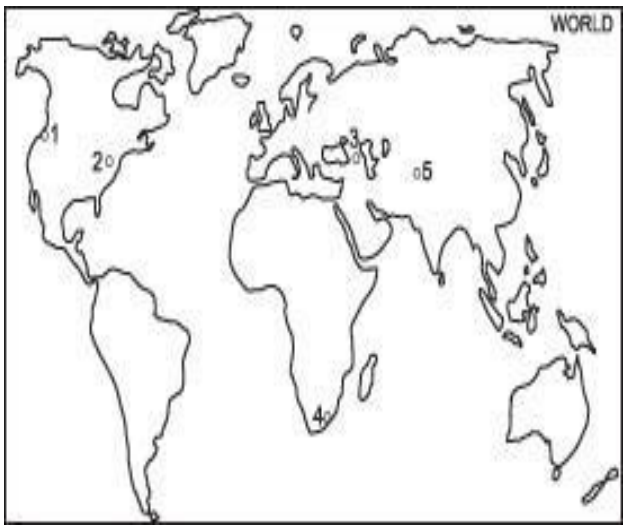

अंतर्राष्ट्रीय घटनाएँ:

A. 1999 में आयोजित राष्ट्रमंडल सम्मेलन का स्थान।

B. 1999 में आयोजित विश्व व्यापार संगठन की बैठक का स्थान।

C. जनवरी 2000 में आयोजित इज़राइल-सीरिया शांति वार्ता का स्थान।

D. जनवरी 2000 में रूसी सैनिकों द्वारा सैन्य कार्रवाई का स्थान।

A. A-2, B-1, C-5, D-3
B. A-3, B-4, C-2, D-1
C. A-4, B-1, C-2, D-3
D. A-4, B-3, C-5, D-2

उत्तर – (C)

व्याख्या-

दिए गए मानचित्र पर अंतर्राष्ट्रीय घटनाओं को उनके संबंधित स्थानों से मिलाने का सही उत्तर है:

A-4, B-1, C-2, D-3

A. 1999 में आयोजित राष्ट्रमंडल सम्मेलन का स्थान: यह कार्यक्रम मानचित्र पर स्थान 4 पर हुआ था।
B. 1999 में आयोजित विश्व व्यापार संगठन की बैठक का स्थान: यह कार्यक्रम मानचित्र पर स्थान 1 पर हुआ था।
C. जनवरी 2000 में आयोजित इज़राइल-सीरिया शांति वार्ता का स्थान: यह घटना मानचित्र पर स्थान 2 पर हुई थी।
D. जनवरी 2000 में रूसी सैनिकों द्वारा सैन्य कार्रवाई का स्थान: यह घटना मानचित्र पर स्थान 3 पर हुई थी।

इसलिए, सही उत्तर A-4, B-1, C-2, D-3 है।

25. साल 2000 के पहले ग्रैंड स्लैम के फाइनल में पहुंचने के लिए मार्टिना हिंगिस को हराया था

A. लिंडसे डेवनपोर्ट B. जेनिफ़र कैप्रियाती
C. सरेना विलियम्स D. कोंचिता मार्टिनेज

उत्तर – (C)

व्याख्या- साल 2000 के पहले ग्रैंड स्लैम में मार्टिना हिंगिस को हराकर फाइनल में पहुंचने वाली खिलाड़ी सेरेना विलियम्स थीं (विकल्प 3)। यहां अन्य विकल्पों का विवरण दिया गया है। विकल्प 1, लिंडसे डेवनपोर्ट, इस समयावधि में एक मजबूत खिलाड़ी थी, हालाँकि, वह वह खिलाड़ी नहीं थी जिसे हिंगिस ने हराकर फाइनल में प्रवेश किया था। विकल्प 2, जेनिफर कैप्रियाती, हालांकि वह एक प्रतिस्पर्धी खिलाड़ी थीं और उनकी हिंगिस के साथ कुछ महाकाव्य लड़ाइयां हुई थीं, लेकिन इस विशेष ग्रैंड स्लैम में उन्होंने हिंगिस का सामना नहीं किया था। विकल्प 4, कोंचिता मार्टिनेज, उस समय महिला सर्किट में एक शीर्ष स्तरीय खिलाड़ी होने के बावजूद, वह खिलाड़ी नहीं थी जिसे हिंगिस ने हराकर फाइनल में प्रवेश किया था। तो, सही उत्तर सेरेना विलियम्स है, जो टेनिस के खेल में सबसे प्रतिष्ठित खिलाड़ियों में से एक है, इस प्रकार विकल्प 3 सही है।

26. स्वर्ण जयंती शहरी रोज़गार योजना, जो 1 दिसंबर, 1997 से लागू हुई, का उद्देश्य शहरी बेरोजगारों या अल्प-रोज़गार गरीबों को लाभकारी रोजगार प्रदान करना है, लेकिन इसमें शामिल नहीं है।

A. नेहरू रोजगार योजना
B. शहरी बुनियादी सेवा कार्यक्रम
C. प्रधानमंत्री एकीकृत शहरी गरीबी उन्मूलन कार्यक्रम
D. प्रधानमंत्री रोजगार योजना

उत्तर – (A)

व्याख्या- स्वर्ण जयंती शहरी रोजगार योजना (एसजेएसआरवाई) एक भारत सरकार का कार्यक्रम है जो शहरी गरीबों को लाभकारी रोजगार प्रदान करने के लिए बनाया गया है।

27. चकियारकुथु नृत्य शैली के संबंध में निम्नलिखित कथनों पर विचार करें:

1. यह चकियार जाति द्वारा किया जाता है।
2. इसे परंपरागत रूप से उच्च जाति के हिंदुओं द्वारा नहीं देखा जा सकता है।
3. मिझावु सहवर्ती वाद्ययंत्र है।
4. इसके नाट्य रूप को कूटम्बलम कहा जाता है।

इनमें से कौन सा कथन सही है?

A. 1, III और IV
B. 1, II और III
C. II, III और IV
D. 1, II और IV

उत्तर – (A)

व्याख्या-

चकियारकुथु नृत्य शैली के संबंध में सही कथन हैं:

1. यह चकियार जाति द्वारा किया जाता है।
3. मिझावु सहवर्ती वाद्ययंत्र है।
4. इसके नाट्य रूप को कूटम्बलम कहा जाता है।
2. जिसमें उल्लेख किया गया है कि नृत्य पारंपरिक रूप से उच्च जाति के हिंदुओं द्वारा नहीं देखा जा सकता है, सही नहीं है। चकियारकुथु प्रदर्शन को सभी जातियों और समुदायों के लोग देख सकते हैं।

इसलिए, सही उत्तर है: 1, III, और IV

28. सूची I को सूची II से सुमेलित करें और सूचियों के नीचे दिए गए कोड का उपयोग करके सही उत्तर चुनें

सूची- I (खनिज)	**सूची- II (प्रमुख निर्माता)**
1. खनिज तेल	(A) जाम्बिया
2. ताँबा	(B) गुयाना
3. मैंगनीज	(C) वेनेजुएला
4. बाक्साइट	(D) गैबॉन

A. 1-C, II-A, III-D, IV-B
B. 1-C, II-A, III-B, IV-D
C. 1-A, II-C, III-B, IV-D
D. 1-A, II-C, III-D, IV-B

उत्तर – (A)

व्याख्या-

यहां सही उत्तर के लिए स्पष्टीकरण दिया गया है:

1. वेनेजुएला में खनिज तेल एक प्रमुख संसाधन है, जो अपने महत्वपूर्ण तेल भंडार के लिए जाना जाता है। इसलिए, सही मिलान 1C है।
2. जाम्बिया में तांबे का उत्पादन प्रमुख है, जो अफ्रीका में तांबे के सबसे बड़े उत्पादकों में से एक है। अत; सही मिलान II-A है।
3. मैंगनीज एक खनिज है जिसका उत्पादन मुख्य रूप से गैबॉन में होता है, जो अपने समृद्ध मैंगनीज भंडार के लिए जाना जाता है। इसलिए, सही मिलान III-D है।
4.. गुयाना में बॉक्साइट का उत्पादन महत्वपूर्ण है, जो अपने व्यापक बॉक्साइट भंडार के लिए जाना जाता है। इस प्रकार, सही मिलान IV-B है।

इसलिए, सही उत्तर है: 1-C, II-A, III-D, IV-B

29. निम्नलिखित कथनों पर विचार करें:

भुगतान संतुलन के चालू खाते के संबंध में

1. भारतीय रुपया पूरी तरह से परिवर्तनीय है।
2. भुगतान संतुलन के पूंजी खाते के संबंध में।
3. सोने में

इनमें से कौन सा कथन सही है/हैं?

A. 1 केवल
B. III केवल
C. 1 और II
D. 1, II और III

उत्तर – (A)

व्याख्या- भारतीय रुपये की परिवर्तनीयता के संबंध में सही कथन है:

1. भुगतान संतुलन के चालू खाते के संबंध में भारतीय रुपया पूरी तरह से परिवर्तनीय है।

कथन II गलत है क्योंकि भुगतान संतुलन के पूंजी खाते के संबंध में भारतीय रुपया पूरी तरह से परिवर्तनीय नहीं है। भारत में पूंजी खाता लेनदेन पर कुछ प्रतिबंध हैं।

कथन III भी गलत है क्योंकि भारतीय रुपया सोने में परिवर्तनीय नहीं है। भारतीय रुपये की परिवर्तनीयता मुख्य रूप से अंतर्राष्ट्रीय व्यापार और लेनदेन से संबंधित है, न कि सोने में रूपांतरण से।

इसलिए, सही उत्तर है: 1

30. संभाजी के बाद निम्नलिखित में से किसने मराठा प्रशासन को सुव्यवस्थित किया?

A. राजा राम
B. बालाजी विश्वनाथ
C. गंगा बाई
D. नानाजी देशमुख

उत्तर – (B)

व्याख्या- संभाजी के बाद, यह बालाजी विश्वनाथ ही थे जिन्होंने मराठा प्रशासन को सुव्यवस्थित करने में महत्वपूर्ण भूमिका निभाई। बालाजी विश्वनाथ मराठा साम्राज्य के पहले पेशवा थे और उन्होंने मराठा राजा के मुख्य प्रशासक और सलाहकार के रूप में कार्य किया था। उन्होंने अपने कार्यकाल के दौरान विभिन्न प्रशासनिक सुधारों को लागू किया और मराठा साम्राज्य के सुदृढ़ीकरण और विस्तार में योगदान दिया।

इसलिए, सही उत्तर बालाजी विश्वनाथ है।

31. सूची I (पुस्तकें) को सूची II (लेखक) से मिलाएं और सूचियों के नीचे दिए गए कोड का उपयोग करके सही उत्तर चुनें

सूची- I	सूची- II
1. मेरा संगीत, मेरा जीवन	(A) लक्ष्मण गायकवाड़
2. आधा गाँव	(B) राही मासूम रज़ा
3. राधा	(C) रमाकांत रथ
4. चोर	(D) रविशंकर

कूट-

(a) I-C, II-B, III-D, IV-A
(b) I-D, II-B, III-C, IV-A
(c) I-D, II-A, III-C, IV-B
(d) I-C, II-A, III-D, IV-B

उत्तर – (B)

व्याख्या-

1. मेरा संगीत, मेरा जीवन - (D) रविशंकर: प्रसिद्ध भारतीय सितार वादक रविशंकर ने "माई म्यूजिक, माई लाइफ" पुस्तक लिखी है जो एक संगीतकार के रूप में उनके जीवन, संगीत और अनुभवों के बारे में अंतर्दृष्टि प्रदान करती है।

2. आधा गाँव - (B) राही मासूम रज़ा: "आधा गाँव" राही मासूम रज़ा द्वारा लिखित एक हिंदी उपन्यास है। यह पुस्तक स्वतंत्रता-पूर्व और स्वतंत्रता-पश्चात अवधि के दौरान भारत में सामाजिक और राजनीतिक परिवर्तनों की जटिलताओं की पड़ताल करती है।

3. राधा - (A) लक्ष्मण गायकवाड़: "राधा" महाराष्ट्र के एक प्रमुख दलित लेखक लक्ष्मण गायकवाड़ द्वारा लिखित एक आत्मकथात्मक उपन्यास है। यह पुस्तक लेखक और दलित समुदाय के अनुभवों और संघर्षों को दर्शाती है।

4. द पिलफ़रर - (C) रमाकांत रथ: "द पिलफ़रर" ओडिशा के एक प्रतिष्ठित कवि रमाकांत रथ द्वारा लिखी गई कविताओं का एक संग्रह है। संग्रह की कविताएँ प्रेम, प्रकृति और आध्यात्मिकता सहित विषयों की एक विस्तृत श्रृंखला को कवर करती हैं।

32. निम्नलिखित में से किसे विश्व का "कॉफ़ी बंदरगाह" कहा जाता है?

A. साओ पाउलो
B. सैंटोस
C. रियो डी जनेरियो
D. ब्यूनस आयर्स

उत्तर – (B)

व्याख्या- विश्व का "कॉफ़ी बंदरगाह" सैंटोस है। सैंटोस ब्राज़ील के साओ पाउलो राज्य में एक शहर है। यह लैटिन अमेरिका के सबसे बड़े और व्यस्ततम बंदरगाहों में से एक है और कॉफी के निर्यात का एक प्रमुख केंद्र है, इसलिए इसे दुनिया के "कॉफी बंदरगाह" का खिताब प्राप्त है।

33. रिसर्जेंट इंडिया बांड अमेरिकी डॉलर, पाउंड स्टर्लिंग और में जारी किए गए थे-

A. जापानी येन
B. डॉयचे मार्क
C. यूरो
D. फ्रेंच फ्रैंक

व्याख्या-B

रिसर्जेंट इंडिया बांड अमेरिकी डॉलर, पाउंड स्टर्लिंग और डॉयचे मार्क में जारी किए गए थे। अनिवासी भारतीयों (एनआरआई) और विदेशी निवेशकों से निवेश आकर्षित करने के लिए भारत सरकार द्वारा 1998 में रिसर्जेंट इंडिया बांड जारी किए गए थे। निवेशकों को विभिन्न मुद्राओं में विकल्प प्रदान करने के लिए इन बांडों को अमेरिकी डॉलर, पाउंड स्टर्लिंग और डॉयचे मार्क में नामित किया गया था। बांड का उद्देश्य भारत के आर्थिक विकास के लिए विदेशी मुद्रा संसाधन जुटाना था।

34. यूरोप के दिए गए मानचित्र पर ए, बी, सी और डी के रूप में लेबल किए गए शहरों में से किस पर 1998 में नाटो और वारसॉ संधि देशों के बीच ऐतिहासिक संधि पर हस्ताक्षर किए गए थे?

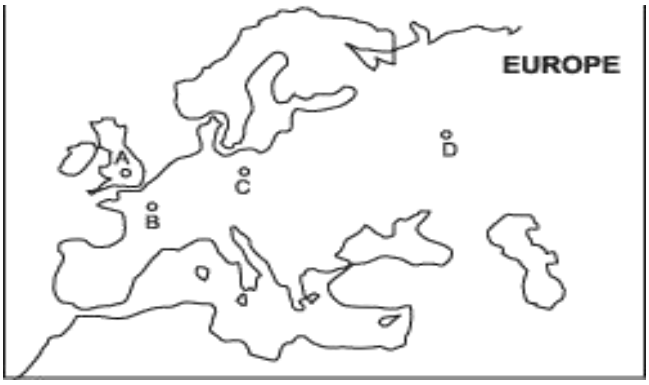

1. A 2. B

3. C 4. D

उत्तर – (3)

व्याख्या-

1998 में नाटो और वारसॉ संधि देशों के बीच हस्ताक्षरित एक संधि को संदर्भित करता है। सही उत्तर विकल्प 3 है।

35. सूची I (बिजली उत्पादन संयंत्र) को सूची II (फ़ीड सामग्री) के साथ सुमेलित करें और सूचियों के नीचे दिए गए कोड का उपयोग करके सही उत्तर चुनें:

सूची- I	सूची- II
1. मैसर्स गौतमी सॉल्वेंट्स ऑयल लिमिटेड, आंध्र प्रदेश	(A) चावल की भूसी
2. मैसर्स के.एम. चीनी मिलें, उत्तर प्रदेश	(B) बूचड़खाने का कचरा
3. मैसर्स सतिया पेपर मिल्स, पंजाब	(C) आसवनी खर्च धुलाई
4. मैसर्स अल कबीर एक्सपोर्ट्स लिमिटेड, आंध्र प्रदेश	(D) काली शराब

A. I-C, II-A, III-B, IV-D

B. I-C, II-A, III-D, IV-B

C. I-A, II-C, III-D, IV-B

D. I-A, II-C, III-B, IV-D

उत्तर – (C)

व्याख्या-

सही उत्तर विकल्प 3 है।

विकल्प 3 बिजली उत्पादन संयंत्रों को उनकी सही फ़ीड सामग्री के साथ इस प्रकार जोड़ता है: मेसर्स गौतमी सॉल्वेंट्स ऑयल लिमिटेड, आंध्र प्रदेश चावल की भूसी (ए) का उपयोग करता है; मैसर्स के.एम. चीनी मिलें, उत्तर प्रदेश डिस्टिलरी स्पेंट वॉश (सी) का उपयोग करती हैं; मैसर्स सतिया पेपर मिल्स, पंजाब काली शराब (डी) का उपयोग करता है; मेसर्स अल कबीर एक्सपोर्ट्स लिमिटेड, आंध्र प्रदेश स्लॉटर-हाउस अपशिष्ट (बी) का उपयोग करता है।

36. दिया गया नक्शा किस साम्राज्य को दर्शाता है?

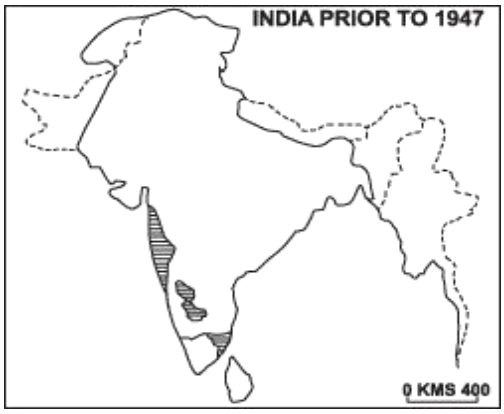

A. 1601 में खानदेश पर कब्ज़ा करने के समय अकबर

B. 1605 में अकबर की मृत्यु के समय

C. हैदराबाद पर कब्जे के समय औरंगजेब

D. 1707 में औरंगजेब की मृत्यु के समय

उत्तर – (A)

व्याख्या- पूछे गए प्रश्न में, सही उत्तर विकल्प 1 है: 1601 में खानदेश पर कब्ज़ा करने के समय अकबर।

- विकल्प 1 अकबर के राज्य के बारे में बताता है जब उसने 1601 में खानदेश पर कब्ज़ा कर लिया था। खानदेश एक महत्वपूर्ण क्षेत्र था जिसे उसने हासिल कर लिया था, इस प्रकार उसने अपने साम्राज्य का विस्तार किया। यह सही उत्तर है क्योंकि दिया गया नक्शा वास्तव में इस विशिष्ट समय में अकबर के शासनकाल के दौरान मुगल साम्राज्य का संदर्भ देता है।
- विकल्प 2 से पता चलता है कि नक्शा 1605 में उसकी मृत्यु के समय अकबर के साम्राज्य को दर्शाता है। जबकि यह अवधि पिछली अवधि के करीब है, 1601 और 1605 के बीच साम्राज्य में क्षेत्रीय परिवर्तन हो सकते थे, जिससे यह विकल्प कम सटीक हो गया।
- विकल्प 3 और 4 विभिन्न चरणों में औरंगजेब के साम्राज्य का उल्लेख करते हैं। औरंगजेब ने अकबर की तुलना में बहुत बाद में, 1658 से 1707 तक शासन किया, और उसके शासन की क्षेत्रीय सीमा अकबर के शासनकाल से भिन्न थी। इसलिए, दिए गए मानचित्र के अनुसार वे सही विकल्प नहीं हैं।

37. निम्नलिखित घटनाओं पर विचार करें:

1. विजयनगर के कृष्णदेव राय का शासनकाल।
2. कुतुब मीनार का निर्माण.
3. भारत में पुर्तगालियों का आगमन।
4. फ़िरोज़ तुगलक की मृत्यु

A. II, IV, III, I
B. II, IV, I, III
C. IV, II, I, III
D. IV, II, III, I

उत्तर – (A)

व्याख्या- सही उत्तर विकल्प I है जो उल्लिखित ऐतिहासिक घटनाओं को कालानुक्रमिक क्रम में व्यवस्थित करता है:

घटना II: कुतुब मीनार का निर्माण दिल्ली सल्तनत के इल्तुतमिश के शासनकाल के दौरान 1220 ईस्वी में पूरा हुआ था।

घटना IV: तुगलक वंश के शासक फिरोज तुगलक ने दिल्ली पर शासन किया और वर्ष 1388 में उनका निधन हो गया।

घटना III: पुर्तगाली भारत में 1498 में आये जब वास्को डी गामा कालीकट में उतरा।

घटना I: कृष्ण देव राय 1509 में विजयनगर साम्राज्य के सिंहासन पर बैठे और 1529 तक शासन किया।

38. दिया गया नक्शा 1, 2, 3, 4 और 5 के रूप में लेबल किए गए हवाई अड्डों के स्थानों को दर्शाता है। उन हवाई अड्डों का सही क्रम क्या है जिनमें दिसंबर 1999 में काठमांडू से अपनी प्रारंभिक उड़ान के बाद अपहृत इंडियन एयरलाइंस का विमान IC-814 उतरा था?

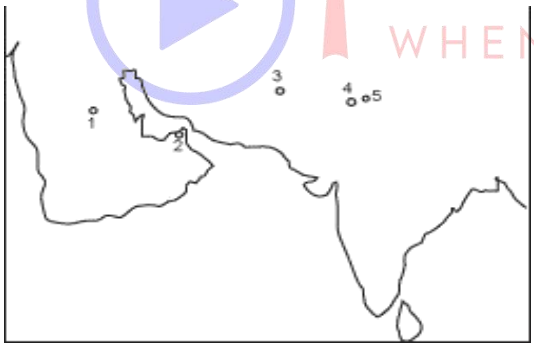

A. 3, 1, 2, 4
B. 2, 4, 1, 3
C. 5, 4, 2, 3
D. 5, 1, 3, 2

उत्तर – (C)

व्याख्या- प्रश्न इंडियन एयरलाइंस की उड़ान आईसी-814 को संदर्भित करता है जिसे दिसंबर 1999 में अपहरण कर लिया गया था।

39. निम्नलिखित कथनों पर विचार करें: दिसंबर 1999 में आयोजित डब्ल्यूटीओ की मंत्रिस्तरीय बैठक असफल रही क्योंकि इसमें जोड़ने का प्रयास किया गया था।

1. व्यापार को श्रम-संबंधी मुद्दों से
2. पर्यावरण संबंधी मुद्दे.
3. आतंकवाद से संबंधित मुद्दे.
4. ऋण संबंधी मुद्दे.

इनमें से कौन सा कथन सही है?

A. I, III और IV
B. I और II
C. II और III
D. II और IV

उत्तर – (B)

व्याख्या- सही उत्तर I और II है।

दिसंबर 1999 में आयोजित डब्ल्यूटीओ की मंत्रिस्तरीय बैठक असफल रही क्योंकि इसमें व्यापार को श्रम-संबंधी मुद्दों (कथन I) और पर्यावरण-संबंधित मुद्दों (कथन II) के साथ जोड़ने का प्रयास किया गया था। अंतर्राष्ट्रीय व्यापार समझौतों में श्रम मानकों और पर्यावरण नियमों को शामिल करने के इन प्रयासों को कुछ सदस्य देशों के विरोध का सामना करना पड़ा, जिसके कारण बैठक विफल हो गई। कथन III (आतंकवाद से संबंधित मुद्दे) और कथन IV (ऋण से संबंधित मुद्दे) सीधे तौर पर दिसंबर 1999 में डब्ल्यूटीओ की बैठक के दौरान चर्चा की गई चिंताओं से संबंधित नहीं हैं।

40. सूची I को सूची II से सुमेलित करें और सूचियों के नीचे दिए गए कोड का उपयोग करके सही उत्तर चुनें:

सूची I (कलाकार)	सूची II (संगीत वितरका माध्यम)
I. बालामुरली कृष्णा	A. हिंदुस्तानी गायन
II. मीता पंडित	B. घाटम
III. कन्याकुमारी	C. सितार
IV. निखिल बनर्जी	D. वायलिन
	E. कर्नाटक स्वर

A. I-E, II-A, III-B, IV-C
B. I-D, II-C, III-A, IV-E
C. I-C, II-A, III-E, IV-B
D. I-E, II-D, III-A, IV-C

उत्तर – (A)

व्याख्या- बालमुरली कृष्ण कर्नाटक गायन संगीत से जुड़े हैं, इसलिए विकल्प (ई) कर्नाटक गायन कलाकार I से मेल खाता है।

मीता पंडित हिंदुस्तानी गायन संगीत से जुड़ी हैं, इसलिए विकल्प (ए) हिंदुस्तानी गायन कलाकार II से मेल खाता है।

कन्याकुमारी वायलिन से संबंधित है, इसलिए विकल्प (बी) घाटम सही मेल नहीं है। यह विकल्प (डी) वायलिन होना चाहिए, जो कलाकार IV से मेल खाता है।

निखिल बनर्जी सितार से जुड़े हैं, इसलिए विकल्प (सी) सितार कलाकार III से मेल खाता है।

इसलिए, सही मिलान है:

I-E, II-A, III-B, IV-C।

41. सूची I को सूची II से सुमेलित करें और सूचियों के नीचे दिए गए कोड का उपयोग करके सही उत्तर चुनें

सूची- I	सूची- II
1. इक्ता	A. मराठा
2. जागीर	B. दिल्ली के सुल्तान
3. अमरम	C. मुगल
4. मोकासा	D. विजयनगर

A. I-C, II-B, III-A, IV-D
B. I-B, II-C, III-D, IV-A
C. I-B, II-C, III-A, IV-D
D. I-C, II-B, III-D, IV-A

उत्तर – (B)

व्याख्या- सूची I में प्रत्येक शब्द भूमि राजस्व प्रणाली या भूमि आवंटन के एक रूप को संदर्भित करता है जो विभिन्न ऐतिहासिक भारतीय राजवंशों या समूहों द्वारा प्रचलित था। इन शब्दों को उस ऐतिहासिक समूह के साथ जोड़ा गया है जो सूची II में उनसे मेल खाता है।

- विकल्प 1: यह गलत है 'इक्ता' का संबंध 'मुगलों' से नहीं है, न ही 'जागीर' का संबंध 'दिल्ली सुल्तानों' से है। 'अमरम' का संबंध 'मराठों' से नहीं है, और 'मोकासा' का संबंध 'विजयनगर' से नहीं है।
- विकल्प 2: यह उत्तर सही है। इक्ता एक ऐसी प्रणाली है जिसका उपयोग दिल्ली के सुल्तानों द्वारा किया जाता था। 'जागीर' शब्द 'मुगलों' से जुड़ा है। `अमरम` `विजयनगर` के साथ सही जोड़ी नहीं है, और `मोकासा` `मराठों` के साथ मेल नहीं खाता है।
- विकल्प 3: यह गलत है, 'अमरम' को 'मराठों' के साथ गलत तरीके से जोड़ा गया है, और 'मोकासा' को 'विजयनगर' के साथ गलत तरीके से जोड़ा गया है।
- विकल्प 4: यह विकल्प ग़लत है। 'इक्ता' को 'मुगलों' के साथ गलत तरीके से जोड़ा गया है।

42. 'रोरिंग फोर्टीज़' के बारे में निम्नलिखित कथनों पर विचार करें:

1. वे उत्तरी और दक्षिणी गोलार्ध में निर्बाध रूप से उड़ते हैं।
2. वे बड़ी ताकत और स्थिरता से उड़ते हैं।
3. दक्षिणी गोलार्ध में इनकी दिशा सामान्यतः उत्तर-पश्चिम से पूर्व की ओर होती है।
4. बादल छाये आसमान, बारिश और कच्चा मौसम आमतौर पर इनसे जुड़े होते हैं।

इनमें से कौन सा कथन सही है?

A. I, II और III
B. II, III और IV
C. I, III और IV
D. I, II और IV

उत्तर – (B)

व्याख्या- "रोअरिंग फोर्टीज़" तेज़ और लगातार चलने वाली पछुआ हवाएँ हैं जो दक्षिणी गोलार्ध में 40° और 50° अक्षांशों के बीच चलती हैं। ये हवाएँ अपनी ताकत और स्थिरता के लिए जानी जाती हैं, जो उन्हें नाविकों और नाविकों के लिए महत्वपूर्ण बनाती हैं।

- कथन II सही है क्योंकि रोअरिंग फोर्टीज़ वास्तव में बड़ी ताकत और स्थिरता के साथ उड़ती हैं, जिससे पार पाना चुनौतीपूर्ण हो सकता है।
- कथन III सही है क्योंकि दक्षिणी गोलार्ध में गर्जन चालीसा की सामान्य दिशा उत्तर-पश्चिम से पूर्व की ओर है। इसका मतलब यह है कि हवाएँ मुख्यतः उत्तर-पश्चिम से पूर्व की ओर चलती हैं।
- कथन IV भी सही है क्योंकि रोअरिंग फोर्टीज़ विशिष्ट मौसम स्थितियों से जुड़े हैं। तेज़ हवाएँ अक्सर आसमान में बादल छाए रहते हैं, बारिश होती है और मौसम ख़राब रहता है। ये स्थितियाँ प्रभावित क्षेत्रों में चुनौतीपूर्ण और कठिन नौकायन स्थितियाँ पैदा कर सकती हैं।
- हालाँकि, कथन I गलत है। रोअरिंग फोर्टीज़ उत्तरी और दक्षिणी गोलार्ध दोनों में निर्बाध रूप से नहीं चलती हैं। वे मुख्य रूप से दक्षिणी गोलार्ध से जुड़े हैं, जहां उनके गठन के लिए परिस्थितियाँ अधिक अनुकूल हैं।

43. एक कॉलेज छात्र अपने शहर की नगर परिषद के लिए निर्वाचित होने की इच्छा रखता है। उनके नामांकन की वैधता अन्य बातों के अलावा महत्वपूर्ण शर्तों पर निर्भर करेगी।

A. वह अपने कॉलेज के प्रिंसिपल से अनुमति लेता है।
B. वह एक राजनीतिक दल का सदस्य है।
C. उनका नाम मतदाता सूची में है।
D. वह भारत के संविधान के प्रति निष्ठा रखते हुए एक घोषणा पत्र दाखिल करता है।

उत्तर – (C)

व्याख्या- दी गई शर्तों में से, एक कॉलेज छात्र के नगर परिषद में नामांकन की वैधता के लिए सबसे महत्वपूर्ण शर्त यह होगी कि उसका नाम मतदाता सूची में हो। मतदाता सूची किसी विशेष निर्वाचन क्षेत्र में पात्र मतदाताओं का रिकॉर्ड है, और यह चुनाव लड़ने के लिए किसी व्यक्ति की योग्यता निर्धारित करने के आधार के रूप में कार्य करती है। यदि छात्र का नाम मतदाता सूची में शामिल नहीं है, तो उसका नामांकन संभवतः अमान्य हो जाएगा क्योंकि उसे निर्वाचन क्षेत्र में एक योग्य मतदाता के रूप में मान्यता नहीं दी जाएगी। कॉलेज के प्राचार्य से अनुमति प्राप्त करना, एक राजनीतिक दल का सदस्य होना और भारत के संविधान के प्रति निष्ठा की घोषणा दाखिल करने की अपनी आवश्यकताएं या महत्व हो सकते हैं, लेकिन वे नामांकन की वैधता के लिए प्राथमिक शर्तें नहीं हो सकते हैं।

44. पूर्व यूगोस्लाविया के निम्नलिखित प्रांतों पर विचार करें:

I. बोस्निया

II. क्रोएशिया

III. स्लोवेनिया

IV. यूगोस्लाविया

इन प्रांतों का पूर्व से पश्चिम तक सही क्रम है

A. IV, I, III, II

B. IV, I, II, III

C. I, IV, III, II

D. I, IV, II, III

उत्तर – (B)

व्याख्या- पूर्व यूगोस्लाविया के प्रांतों का पूर्व से पश्चिम तक सही क्रम यूगोस्लाविया, बोस्निया, क्रोएशिया और स्लोवेनिया है।

- विकल्प 1 यूगोस्लाविया, बोस्निया, स्लोवेनिया और क्रोएशिया के अनुक्रम का सुझाव देता है। यह गलत है क्योंकि स्लोवेनिया क्रोएशिया और बोस्निया दोनों के पश्चिम में है।
- विकल्प 3 में बोस्निया, यूगोस्लाविया, स्लोवेनिया और क्रोएशिया का प्रस्ताव है। यह आदेश इसलिए भी गलत है क्योंकि यूगोस्लाविया बोस्निया के पूर्व में है।
- विकल्प 4 बोस्निया, यूगोस्लाविया, क्रोएशिया और स्लोवेनिया के अनुक्रम को आगे बढ़ाता है। हालाँकि, यूगोस्लाविया को सबसे पूर्वी स्थान पर होना चाहिए, बोस्निया को नहीं।
- विकल्प 2 सही क्रम प्रदान करता है, जो पूर्व में यूगोस्लाविया से शुरू होता है, उसके बाद बोस्निया, फिर क्रोएशिया और अंत में पश्चिम में स्लोवेनिया होता है। यह विकल्प पूर्व से पश्चिम तक इन प्रांतों की भौगोलिक स्थिति के साथ सही ढंग से संरेखित होता है। इसलिए, विकल्प 2 वास्तव में सही उत्तर है।

45. निम्नलिखित में से किस मुस्लिम शासक को धर्म निरपेक्षता में विश्वास के कारण उसकी मुस्लिम प्रजा द्वारा 'जगद्गुरु' के रूप में सम्मानित किया गया था?

A. हुसैन शाह

B. ज़ैन-उल-अबिदीन

C. इब्राहिम आदिल शाह

D. महमूद द्वितीय

उत्तर – (C)

व्याख्या- तीसरा विकल्प इब्राहिम आदिल शाह, 16वीं शताब्दी के अंत में भारत के बीजापुर में आदिल शाही वंश का शासक था। वह धर्मनिरपेक्षता में विश्वास और अपने राज्य में हिंदुओं और मुसलमानों के बीच शांतिपूर्ण संबंधों को बढ़ावा देने के प्रयासों के लिए जाने जाते थे। परिणामस्वरूप, उन्हें 'जगद्गुरु' की उपाधि दी गई, जिसका संस्कृत में अर्थ है 'विश्व शिक्षक', जो उनकी छवि को एक एकीकृत व्यक्ति के रूप में दर्शाता है जो धर्म के आधार पर भेदभाव नहीं करता था। इसलिए, यह उपाधि केवल उनकी मुस्लिम प्रजा द्वारा नहीं, बल्कि उनके राज्य के सभी धर्मों के लोगों द्वारा प्रदान की गई थी।

- तुलनात्मक रूप से, अन्य विकल्प जैसे हुसैन शाह, ज़ैन-उल-आबिदीन और महमूद द्वितीय भी मुस्लिम शासक थे लेकिन वे इब्राहिम आदिल शाह के समान अपनी धर्मनिरपेक्ष मान्यताओं को मान्यता नहीं देते हैं। हुसैन शाह और ज़ैन-उल-आबिदीन ने अलग-अलग समय अवधि के दौरान भारत में अलग-अलग सल्तनत का नेतृत्व किया, जबकि महमूद द्वितीय एक तुर्क सुल्तान था। उनके संबंधित योगदान के बावजूद, उनमें से किसी को भी धर्मनिरपेक्ष मान्यताओं के कारण 'जगद्गुरु' के रूप में संदर्भित नहीं किया गया, जिससे विकल्प 3 सही उत्तर बन गया।

46. सूची I को सूची II से सुमेलित करें और सूचियों के नीचे दिए गए कोड का उपयोग करके सही उत्तर चुनें

सूची- I (स्थानीय निकाय)	सूची- II (1999 की स्थिति के अनुसार राज्य)
I. उप-विभागीय स्तर पर जिला परिषदें	A. आंध्र प्रदेश
ii. मंडल प्रजा परिषद	B. असम
iii. जनजातीय परिषदें	C. मिजोरम
iv. ग्राम पंचायतों का अभाव	D. मेघालय

कूट-

(a) I-B, II-A, III-D, IV-C

(b) I-A, II-B, III-D, IV-C

(c) I-C, II-B, III-A, IV-D

(d) I-B, II-A, III-C, IV-D

उत्तर – (C)

व्याख्या- विकल्प 1 में, मिलान ग़लत है। उप-विभागीय स्तर पर जिला परिषदें असम में पाई जाने वाली स्थानीय निकाय संरचना नहीं हैं और जनजातीय परिषदें मेघालय में नहीं पाई जाती हैं।

- विकल्प 2 में, फिर से मिलान गलत है। आंध्र प्रदेश में उप-विभागीय स्तर पर जिला परिषदें नहीं हैं और असम मंडल प्रजा परिषद प्रणाली का पालन नहीं करता है।
- विकल्प 3 में, मिलान भी ग़लत है। मिजोरम में उप-विभागीय स्तर पर जिला परिषदें नहीं हैं और जनजातीय परिषदें आंध्र प्रदेश में पाई जाने वाली स्थानीय निकाय नहीं हैं।
- सही उत्तर विकल्प 4 है। इस मामले में, जिला परिषदें असम में एक स्थानीय निकाय हैं, मंडल प्रजा परिषद आंध्र प्रदेश में पाई जाती है, जनजातीय परिषदें मिजोरम की एक विशेषता हैं, और मेघालय ग्राम पंचायतों की अनुपस्थिति के कारण अद्वितीय है। इसलिए, प्रत्येक पिंड अपनी संबंधित स्थिति से सही ढंग से मेल खाता है।

47. निम्नलिखित में से कौन सा कथन गलत है?

A. 1987 में गोवा को पूर्ण राज्य का दर्जा प्राप्त हुआ

B. दीव खंभात की खाड़ी में एक द्वीप है।

C. भारत के संविधान के 56वें संशोधन द्वारा दमन और दीव को गोवा से अलग कर दिया गया।

D. दादरा और नगर हवेली 1954 तक फ्रांसीसी औपनिवेशिक शासन के अधीन थे।

उत्तर – (D)

व्याख्या- गलत कथन है: दादरा और नगर हवेली 1954 तक फ्रांसीसी औपनिवेशिक शासन के अधीन थे।

- दादरा और नगर हवेली फ्रांसीसी औपनिवेशिक शासन के अधीन नहीं थे। वे पूर्व पुर्तगाली क्षेत्र थे। उन्हें 1961 में भारत गणराज्य में शामिल किया गया था। इसलिए, कथन गलत है।

48. निम्नलिखित में से कौन सी झील तंजानिया और युगांडा के बीच अंतर्राष्ट्रीय सीमा बनाती है?

A. काग़ज़ का टुकड़ा B. मलावी

C. विक्टोरिया D. ज़ांबेज़ी

उत्तर – (C)

व्याख्या- विक्टोरिया झील वह झील है जो तंजानिया और युगांडा के बीच एक अंतरराष्ट्रीय सीमा बनाती है। यह अफ्रीका की सबसे बड़ी झील है और क्षेत्रफल के हिसाब से दुनिया की दूसरी सबसे बड़ी मीठे पानी की झील है। विक्टोरिया झील पूर्वी अफ्रीका में स्थित है और इसकी सीमा पूर्व में तंजानिया, उत्तर में युगांडा और उत्तर पूर्व में केन्या से लगती है।

- यह झील तंजानिया और युगांडा दोनों के लिए बहुत महत्वपूर्ण है और इसका पानी दोनों देशों द्वारा साझा किया जाता है। तंजानिया और युगांडा के बीच की सीमा झील से होकर गुजरती है, प्रत्येक देश के क्षेत्र में झील का एक हिस्सा है। दोनों देशों के बीच झील का सटीक विभाजन अंतरराष्ट्रीय समझौतों और संधियों द्वारा निर्धारित किया जाता है।
- विक्टोरिया झील न केवल अपने सीमा महत्व के लिए बल्कि अपने पारिस्थितिक और आर्थिक मूल्य के लिए भी महत्वपूर्ण है। यह मछली और अन्य वन्य जीवन की कई प्रजातियों के साथ एक विविध पारिस्थितिकी तंत्र का समर्थन करता है। झील आसपास के समुदायों के लिए मीठे पानी का एक महत्वपूर्ण स्रोत है, और इसके पानी का उपयोग मछली पकड़ने, परिवहन और पर्यटन सहित विभिन्न उद्देश्यों के लिए किया जाता है।
- कुल मिलाकर, विक्टोरिया झील एक महत्वपूर्ण प्राकृतिक विशेषता के रूप में कार्य करती है जो तंजानिया और युगांडा को जोड़ती है और उनके साझा इतिहास, अर्थव्यवस्था और प्राकृतिक संसाधनों में महत्वपूर्ण भूमिका निभाती है।

49. मौजूदा कीमतों पर प्रति व्यक्ति आय की वृद्धि दर स्थिर कीमतों पर प्रति व्यक्ति आय की वृद्धि दर से अधिक है, क्योंकि स्थिर कीमतों पर प्रति व्यक्ति आय की वृद्धि दर को ध्यान में रखा जाता है।

A. जनसंख्या की वृद्धि B. मूल्य स्तर में वृद्धि

C. धन आपूर्ति की वृद्धि D. मजदूरी दर में वृद्धि

उत्तर – (B)

व्याख्या-

- स्थिर कीमतों पर प्रति व्यक्ति आय की वृद्धि दर मौजूदा कीमतों पर प्रति व्यक्ति आय की तुलना में कम है क्योंकि स्थिर कीमतों पर प्रति व्यक्ति आय की वृद्धि दर को ध्यान में रखा जाता है।
- मौजूदा कीमतों पर प्रति व्यक्ति आय की गणना मूल्य स्तर में बदलावों को समायोजित किए बिना, किसी देश की कुल आय को उसकी जनसंख्या से विभाजित करके की जाती है। यह दिए गए वर्ष में आय के नाममात्र मूल्य को दर्शाता है।
- दूसरी ओर, स्थिर कीमतों पर प्रति व्यक्ति आय संदर्भ बिंदु के रूप में आधार वर्ष का उपयोग करके मूल्य स्तर में

बदलाव के लिए समायोजित होती है। यह मुद्रास्फीति या अपस्फीति के प्रभाव को हटाकर आय के वास्तविक मूल्य को दर्शाता है।

- जब मौजूदा कीमतों पर प्रति व्यक्ति आय की वृद्धि दर स्थिर कीमतों पर प्रति व्यक्ति आय की तुलना में अधिक होती है, तो इसका मतलब है कि आय में वृद्धि आंशिक या पूरी तरह से वास्तविक उत्पादन या उत्पादकता में वास्तविक वृद्धि के बजाय कीमतों में वृद्धि के कारण होती है।
- इसलिए, यह कथन गलत है क्योंकि स्थिर कीमतों पर प्रति व्यक्ति आय की वृद्धि दर मूल्य स्तर में वृद्धि को ध्यान में रखती है, न कि जनसंख्या वृद्धि दर, धन आपूर्ति की वृद्धि या मजदूरी दर में वृद्धि को ध्यान में रखती है।

50. "इस उदाहरण में हम मुसलमानों को हिंदुओं के ख़िलाफ़ नहीं खेल सकते थे"। एचिसन की यह टिप्पणी निम्नलिखित में से किस घटना से संबंधित थी?

A. 1857 का विद्रोह
B. चंपारण सत्याग्रह (1917)
C. खिलाफत और असहयोग आंदोलन (1919-22)
D. 1942 का अगस्त आंदोलन

उत्तर – (C)

- **व्याख्या-** यह कथन उस घटना को संदर्भित करता है जहां मुसलमान (मुसलमान) और हिंदू दोनों एकजुट थे और इसलिए, विभाजन की रणनीति ब्रिटिश शासन द्वारा लागू नहीं की जा सकी।
- 1857 का विद्रोह ब्रिटिश शासन के खिलाफ सैनिकों (सिपाहियों) द्वारा किया गया विद्रोह था लेकिन यह हिंदू और मुस्लिम नागरिकों के बीच विशेष रूप से नहीं फैला था।
- 1917 में चंपारण सत्याग्रह मुख्य रूप से नील बागान मालिकों के खिलाफ महात्मा गांधी के नेतृत्व में एक किसान आंदोलन था, न कि विशेष रूप से औपनिवेशिक शासन के खिलाफ हिंदुओं और मुसलमानों को एकजुट करना।
- खिलाफत और असहयोग आंदोलन (1919-22) सही उत्तर है। यह एक महत्वपूर्ण उदाहरण था जब हिंदू और मुस्लिम दोनों समुदाय ब्रिटिश शासन के खिलाफ एक राजनीतिक कार्रवाई के तहत एकजुट हुए। यह मुस्लिमों के लिए महत्वपूर्ण व्यक्ति ऑटोमन खलीफा के खिलाफ की गई अन्यायपूर्ण कार्रवाइयों के जवाब में था, और स्वतंत्रता की मांग के व्यापक संदर्भ में भी था।
- 1942 का अगस्त आंदोलन, जिसे भारत छोड़ो आंदोलन के रूप में भी जाना जाता है, विशेष रूप से हिंदू-मुस्लिम संयुक्त मोर्चा नहीं था।
- इसलिए, इन बिंदुओं पर विचार करते हुए, यह एचिसन के कथन को विकल्प 3 पर लागू करता है।

51. निम्नलिखित समाचार आइटम 1-12-1999 के एक राष्ट्रीय दैनिक में छपा: "...संसद ने आज महिलाओं को संसदीय चुनावों में मतदान करने और पद के लिए खड़े होने का अधिकार देने वाले विधेयक को 32 से 30 के अंतर से खारिज कर दिया। राष्ट्रीय विधानसभा उदारवादी, सरकार समर्थक और शिया मुस्लिम प्रतिनिधियों के बीच विभाजित थी जो महिलाओं के अधिकारों के पक्ष में थे, जबकि विपक्षी खेमे में सुन्नी मुस्लिम कट्टरपंथियों और आदिवासी सांसदों का समूह था। कुल 64 सांसद और मंत्री उपस्थित थे, जिनमें से दो अनुपस्थित रहे। इस उद्धरण में जिस संसद का उल्लेख है वह है-

A. कुवैत
B. ईरान
C. बहरीन
D. सऊदी अरब

उत्तर – (A)

व्याख्या- संसद ने महिलाओं को वोट देने और संसदीय चुनावों में पद के लिए खड़े होने का अधिकार देने वाले विधेयक को खारिज कर दिया। इसमें उदारवादी, सरकार समर्थक, शिया मुस्लिम प्रतिनिधियों की उपस्थिति का भी उल्लेख है जो महिलाओं के अधिकारों के पक्ष में थे, और सुन्नी मुस्लिम कट्टरपंथियों और आदिवासी सांसदों वाले विपक्षी समूहों का भी उल्लेख है।

- यह उस समय कुवैत के राजनीतिक परिदृश्य के अनुरूप है। 1999 में, कुवैत की संसद महिलाओं के अधिकारों और राजनीतिक प्रक्रिया में उनके समावेश के संबंध में चर्चा और बहस में लगी हुई थी। विधेयक को अस्वीकार किया जाना इस मुद्दे पर कुवैती संसद के भीतर चल रही बहस और विभाजन को दर्शाता है।
- इसलिए, प्रदान की गई जानकारी के आधार पर, यह निष्कर्ष निकाला जा सकता है कि उद्धरण में उल्लिखित संसद कुवैत की है।

52. निम्नलिखित में से कौन सा कथन सत्य नहीं है?

A. घग्गर के पानी का उपयोग इंदिरा गांधी नहर में किया जाता है।
B. नर्मदा अमरकंटक क्षेत्र से निकलती है।
C. निज़ाम सागर मंजरा नदी पर स्थित है।
D. पेंगांगा गोदावरी की एक सहायक नदी है।

उत्तर – (A)

व्याख्या- सही उत्तर विकल्प 1 है जिसमें कहा गया है कि "घग्गर का पानी इंदिरा गांधी नहर में उपयोग किया जाता है"। यह कथन असत्य है क्योंकि इंदिरा गांधी नहर को पानी की आपूर्ति ब्यास और सतलुज नदियों से मिलती है, घग्गर नदी से नहीं।

- विकल्प 2, 3, और 4 सत्य हैं।

उपरोक्त कथनों में से कौन-सा/से सही है/हैं?

(a) केवल 1

(b) केवल 2

(c) 1 और 2 दोनों

(d) न तो 1 और न ही 2

उत्तर-(c)

व्याख्या-

- संगीत नाटक अकादमी ने 1959 में नेशनल स्कूल ऑफ ड्रामा की स्थापना की थी। इसलिए, कथन 1 सत्य है।
- साहित्य अकादमी किसी लेखक को सर्वोच्च सम्मान फेलोशिप के रूप में प्रदान करती है। इसलिए, कथन 2 भी सत्य है।

UPSC – 2010

1. प्राचीन भारत में गुप्त काल से सम्बन्धित गुफा चित्रांकन के केवल दो उदाहरण उपलब्ध हैं। इनमें से एक अजन्ता की गुफाओं में किया गया चित्रांकन है। गुप्त काल के चित्रांकन का दूसरा अवशिष्ट उदाहरण किस स्थान पर उपलब्ध है ?

(a) बाघ गुफाएँ

(b) एलोरा गुफाएँ

(c) लोमस ऋषि गुफा

(d) नासिक गुफाएँ

उत्तर- -(a)

व्याख्या-

- गुप्तकाल में भारत में चित्रकला अपने चरम पर थी। उस समय की दो प्रमुख गुफा चित्रकलाओं में अजन्ता की गुफाएं और बाघ की गुफाएं शामिल हैं।

अजंता की गुफाएं

- महाराष्ट्र के औरंगाबाद में स्थित अजंता की गुफाएं गुप्तकालीन चित्रकला के सर्वोत्तम उदाहरण हैं।
- इन गुफाओं में धार्मिक विषयों पर आधारित चित्र बनाए गए हैं, जैसे बुद्ध और बोधिसत्वों की प्रतिमाएं, जातक कथाओं के दृश्य आदि।
- इन गुफाओं में चित्रों का निर्माण बहुत ही बारीकी और सूक्ष्मता से किया गया है।

बाघ की गुफाएं

- ग्वालियर के पास बाघ नामक स्थान पर स्थित बाघ की गुफाएं भी गुप्तकालीन हैं।
- इन गुफाओं में लौकिक विषयों पर आधारित चित्र बनाए गए हैं, जैसे संगीत और नृत्य के दृश्य, शिकार के दृश्य आदि।
- इन गुफाओं के चित्र अजन्ता की गुफाओं की तुलना में सरल हैं, लेकिन फिर भी वे बहुत ही सुंदर और आकर्षक हैं।

अजंता की गुफाओं के कुछ प्रमुख चित्र

- गुफा संख्या 16 में मरणासन्न राजकुमारी का चित्र
- गुफा संख्या 17 में बुद्ध के जीवन की घटनाओं का चित्रण
- गुफा संख्या 17 में माता और शिशु का चित्र
- बाघ की गुफाओं के कुछ प्रमुख चित्र
- संगीत और नृत्य के दृश्य
- शिकार के दृश्य
- नर्तकियों के दृश्य

2. आरम्भिक मध्ययुगीन समय में भारत में बौद्ध धर्म का पतन किस/किन कारण / कारणों से शुरू हुआ?

1. उस समय तक बुद्ध, विष्णु के अवतार समझे जाने लगे और वैष्णव धर्म का हिस्सा बन गए।
2. अन्तिम गुप्त राजा के समय तक आक्रमण करने वाली मध्य एशिया की जनजातियों ने हिन्दू धर्म को अपनाया और बौद्धों को सताया।
3. गुप्त वंश के राजाओं ने बौद्ध धर्म का पुरजोर विरोध किया। उपरोक्त में से कौन-सा/से कथन सही है/हैं ?

(A) केवल 1

(B) केवल 1 और 3

(C) केवल 2 और 3

(D) 1, 2 और 3

उत्तर- (A)

व्याख्या- बौद्ध धर्म के पतन के कारण

- **कर्मकांडों और बुराइयों में फंसना:** बौद्ध धर्म ने शुरू में ही कर्मकांडों और बुराइयों का विरोध किया था, लेकिन समय के साथ वह खुद ही इनमें फंस गया। उसने कई ऐंद्रजालिक प्रक्रियाओं और तन्त्र-मन्त्र पर आधारित कर्मकांडों को अपना लिया। इससे आम जनता को बौद्ध धर्म और हिंदू धर्म में कोई अंतर नहीं दिखाई दिया, और वे फिर से हिंदू धर्म में लौट गए।
- उस समय तक बुद्ध, विष्णु का अवतार समझे जाने लगे और वैष्णव धर्म का हिस्सा बन गए।
- **पाली भाषा को छोड़कर संस्कृत को अपनाना:** बौद्ध धर्म ने पाली भाषा को छोड़कर संस्कृत को अपना लिया। इससे बौद्ध धर्म आम लोगों के लिए समझना मुश्किल हो गया।
- **अत्यधिक दान और धन संग्रह:** बौद्ध मठों में अत्यधिक दान और धन संग्रह होने लगा। इससे बौद्ध मठ भ्रष्टाचार का अड्डा बन गए। बौद्ध भिक्षु आलसी और ऐश्वर्य प्रेमी हो गए, जिससे आम जनता में बौद्ध धर्म की छवि खराब हुई।
- **विभाजन:** बौद्ध धर्म कई सम्प्रदायों में विभाजित हो गया। इससे बौद्ध धर्म की एकता और शक्ति कम हो गई।
- **राजकीय समर्थन की कमी:** बौद्ध धर्म को राजकीय समर्थन नहीं मिला। इसके विपरीत, हिंदू धर्म को राजकीय समर्थन मिला। इससे हिंदू धर्म को बढ़ावा मिला और बौद्ध धर्म को नुकसान हुआ।
- **आक्रमण:** हूण और तुर्क हमलावरों ने बौद्ध मठों पर हमला किया और उन्हें नष्ट कर दिया। इससे बौद्ध धर्म की रही सही अस्मिता भी नष्ट हो गई।

कुल मिलाकर, बौद्ध धर्म के पतन के कई कारण थे। इनमें कर्मकांडों और बुराइयों में फंसना, पाली भाषा को छोड़कर संस्कृत को अपनाना, अत्यधिक दान और धन संग्रह, विभाजन, राजकीय समर्थन की कमी और आक्रमण शामिल हैं।

3. अहमद शाह अब्दाली के भारत पर आक्रमण और पानीपत की तीसरी लड़ाई लड़ने का तात्कालिक कारण क्या था?

(A) वह मराठों द्वारा लाहौर से अपने वायसराय तैमूर शाह के निष्कासन का बदला लेना चाहता था

(B) उसे जालन्धर के कुण्ठाग्रस्त राज्यपाल आदीन बेग खान ने पंजाब पर आक्रमण करने के लिए आमन्त्रित किया

(C) वह मुगल प्रशासन को चहार महल (गुजरात, औरंगाबाद, सियालकोट तथा पसरूर) के राजस्व का भुगतान न करने के लिए दण्डित करना चाहता था

(D) वह दिल्ली की सीमाओं तक के पंजाब के सभी उपजाऊ मैदानों को हड़पकर अपने राज्य में विलय करना चाहता था

उत्तर- (A)

व्याख्या- अहमद शाह अब्दाली ने भारत पर इसलिए आक्रमण किया क्योंकि मराठों ने उसके वायसराय तैमूर शाह को लाहौर से निकाल दिया था। अब्दाली ने मराठों को कई बार हराया, जिसमें पानीपत की तीसरी लड़ाई भी शामिल थी। इस लड़ाई में मराठों की हार से उनकी शक्ति कम हो गई।

4. निम्नलिखित में से कौन, भक्ति आन्दोलन का प्रस्तावक नहीं था?

(A) नागार्जुन

(B) तुकाराम

(C) त्यागराज

(D) वल्लभाचार्य

उत्तर- (A)

व्याख्या- भक्ति आंदोलन के शुरू करने वाले नागार्जुन नहीं थे। तुकाराम महाराष्ट्र के पंढरपुर के रहने वाले थे। वे विट्ठल के बड़े भक्त थे। वे बरकरी संप्रदाय से जुड़े थे। वे शिवाजी के समकालीन थे।

- वल्लभाचार्य 15वीं और 18वीं शताब्दी के भक्ति आंदोलन से जुड़े थे। उन्होंने शुद्धाद्वैतवाद की शिक्षा दी। वे कृष्ण के भक्त थे। उनका मानना था कि ईश्वर शुद्ध है और बदलता नहीं है। उनका मानना था कि गृहस्थ जीवन में भी भक्ति के माध्यम से मोक्ष प्राप्त किया जा सकता है। उनका मत पुष्टिमार्ग या दया के मार्ग के नाम से भी जाना जाता है।
- त्यागराज भक्ति आंदोलन से जुड़े थे। उन्होंने अपने संगीत के माध्यम से दक्षिण भारत में भक्ति आंदोलन को बढ़ावा दिया था।

5. साइमन कमीशन की संस्तुतियों के सन्दर्भ में निम्नलिखित में से कौन-सा एक कथन सही है?

(A) इसने प्रान्तों में द्वैधशासन के उत्तरदायी सरकार द्वारा प्रतिस्थापित करने की संस्तुति की

(B) इसने गृह विभाग के अधीन अन्तर-प्रान्तीय परिषद् स्थापित करने का सुझाव दिया

(C) इसने केन्द्र में द्विसदन विधायिका के उन्मूलन का सुझाव

(D) इसने भारतीय पुलिस सेवा इस प्रावधान के साथ सृजित करने की संस्तुति की कि ब्रिटिश भर्ती का, भारतीय भर्ती की तुलना में वेतन तथा भत्ता अधिक होगा

उत्तर- (A)

व्याख्या- 1927 में, ब्रिटिश सरकार ने सर जॉन साइमन की अध्यक्षता में एक आयोग बनाया। इस आयोग का काम यह पता लगाना था कि भारत को और कौन से संवैधानिक अधिकार दिए जाने चाहिए। लेकिन इस आयोग में एक भी भारतीय सदस्य नहीं था। इससे भारतीय लोगों में बहुत गुस्सा आ गया। कांग्रेस और मुस्लिम लीग सहित सभी राजनीतिक दलों ने इस आयोग का बहिष्कार कर दिया। साइमन कमीशन ने प्रान्तों में द्वैध शासन के उत्तरदायी सरकार द्वारा प्रतिस्थापित करने की संस्तुति की थी।

6. भारतीय राष्ट्रीय कांग्रेस के, वर्ष 1906 में विख्यात कलकत्ता अधिवेशन में चार संकल्प पारित किए गए थे। सूरत 1907 ई० में हुए कांग्रेस के अगले अधिवेशन में इन चारों संकल्पों को स्वीकार करने अथवा उन्हें अस्वीकृत करने के प्रश्न पर कांग्रेस में विभाजन हो गया था। निम्नलिखित में से कौन-सा एक संकल्प इन चारों संकल्पों में नहीं था?

(A) बंगाल के विभाजन को रद्द करना

(B) बहिष्कार (बायकॉट)

(C) राष्ट्रीय शिक्षा

(D) स्वदेशी

उत्तर- (A)

व्याख्या-

- 1906 में कलकत्ता में हुए कांग्रेस के अधिवेशन में, भारतीयों ने चार प्रस्ताव पारित किए। ये प्रस्ताव स्वदेशी, बहिष्कार, राष्ट्रीय शिक्षा और स्वशासन के बारे में थे। इनमें से कोई भी प्रस्ताव बंगाल के विभाजन को रद्द करने के बारे में नहीं था।
- 1907 में सूरत में हुए कांग्रेस के अधिवेशन में, इन चार प्रस्तावों को स्वीकार करने या अस्वीकार करने के बारे में मतभेद हो गए। इस मतभेद के कारण, कांग्रेस दो भागों में विभाजित हो गई।

7. भारत छोड़ो आन्दोलन के उपरान्त, सी० राजगोपालाचारी ने 'दी वे-आउट' नामक पैम्फलेट जारी किया। निम्नलिखित में से कौन-सा एक प्रस्ताव इस पैम्फलेट में था?

(A) ब्रिटिश भारत तथा भारतीय राज्यों के प्रतिनिधियों को मिलाकर एक 'युद्ध सलाहकार परिषद्' की स्थापना

(B) केन्द्रीय कार्यकारी परिषद् का इस प्रकार पुनर्गठन कि गवर्नर-जनरल तथा कमाण्डर-इन-चीफ के अतिरिक्त अन्य सभी सदस्य भारतीय नेता हों

(C) केन्द्रीय तथा प्रान्तीय विधानमण्डलों के 1945 के अन्त में नए चुनाव कराए जाएँ तथा संविधान का निर्माण करने वाले निकाय को यथासम्भव शीघ्र आयोजित किया जाए

(D) संवैधानिक गतिरोध का हल

उत्तर- (D)

व्याख्या- भारत छोड़ो आंदोलन के बाद, सी. राजगोपालाचारी ने एक योजना बनाई जिससे भारत को स्वतंत्रता मिल सके। इस योजना को "द वे-आउट" कहा गया। इसका प्रमुख उद्देश्य संवैधानिक गतिरोध को हल करना है। इस योजना के तहत, मुस्लिम लीग को भारत की स्वतंत्रता की मांग का समर्थन करना था और कांग्रेस के साथ मिलकर सरकार बनानी थी। युद्ध के बाद, मुस्लिम बहुल क्षेत्रों में जनमत संग्रह कराया जाना था ताकि यह पता चल सके कि वे भारत के साथ रहना चाहते हैं या अलग राज्य बनाना चाहते हैं। अगर भारत का विभाजन हुआ, तो रक्षा, संचार और अन्य आवश्यक मामलों पर एक समझौता किया जाना था।

8. 1931 ई० में भारतीय राष्ट्रीय कांग्रेस के कराची अधिवेशन के लिए, जिसकी अध्यक्षता सरदार पटेल कर रहे थे, किसने मूल अधिकारों तथा आर्थिक कार्यक्रम पर संकल्प प्रास्पित किया था?

(A) महात्मा गाँधी

(B) पण्डित जवाहरलाल नेहरू

(C) डॉ० राजेन्द्र प्रसाद

(D) डॉ० बी०आर० अम्बेडकर

उत्तर- (B)

व्याख्या-

1931 में, भारतीय राष्ट्रीय कांग्रेस का एक अधिवेशन सरदार वल्लभ भाई पटेल की अध्यक्षता में कराची में हुआ था। इस अधिवेशन में दो प्रस्ताव पारित किए गए थे:

- पहला प्रस्ताव जवाहरलाल नेहरू द्वारा तैयार किया गया था, जिसमें मूल अधिकारों और आर्थिक कार्यक्रम की रूपरेखा थी। इस प्रस्ताव को अधिवेशन में स्वीकार कर लिया गया।

- दूसरा प्रस्ताव गांधी-इरविन समझौते को स्वीकार करने का था। इस समझौते के अनुसार, गांधीजी को लंदन में होने वाले दूसरे गोलमेज सम्मेलन में भाग लेने की अनुमति दी गई थी।

9. निम्नलिखित में से कौन, क्रिप्स मिशन के साथ कांग्रेस के आधिकारिक वार्ताकार थे ?

(A) महात्मा गाँधी एवं सरदार पटेल

(B) आचार्य जे०बी० कृपलानी एवं सी० राजगोपालाचारी

(C) पण्डित जवाहरलाल नेहरू एवं मौलाना आजाद

(D) डॉ० राजेन्द्र प्रसाद एवं रफी अहमद किदवई

उत्तर – (C)

व्याख्या- द्वितीय विश्व युद्ध के दौरान, ब्रिटेन ने भारत को युद्ध में शामिल होने के लिए कहा। इसके लिए, ब्रिटिश प्रधानमंत्री चर्चिल ने कैबिनेट मंत्री सर स्टैफोर्ड क्रिप्स के नेतृत्व में एक मिशन भारत भेजा। कांग्रेस के नेताओं पंडित जवाहरलाल नेहरू और मौलाना अबुल कलाम आजाद ने क्रिप्स मिशन के साथ बातचीत की।

क्रिप्स मिशन ने एक प्रस्ताव दिया जिसमें निम्नलिखित प्रावधान थे:

- युद्ध के बाद, भारत को डोमिनियन स्टेट का दर्जा दिया जाएगा।
- एक संविधान सभा बनाई जाएगी, जिसमें कुछ सदस्य प्रान्तीय विधायकों द्वारा और कुछ शासकों द्वारा चुने जाएंगे।
- पाकिस्तान की मांग को पूरा करने के लिए, यह व्यवस्था की जाएगी कि अगर किसी प्रांत को नया संविधान स्वीकार नहीं है, तो वह ब्रिटेन से अलग हो सकता है।

10. पॉण्डिचेरी (वर्तमान पुदुचेरी) के सन्दर्भ में निम्नलिखित कथनों पर विचार कीजिए-

1. पॉण्डिचेरी पर कब्जा करने वाली पहली यूरोपीय शक्ति पुर्तगाली थे।

2. पॉण्डिचेरी पर कब्जा करने वाली दूसरी यूरोपीय शक्ति फ्रांसीसी थे।

3. अंग्रेजों ने कभी पॉण्डिचेरी पर कब्जा नहीं किया। उपर्युक्त में से कौन-सा/से कथन सही है/हैं?

(A) केवल 1

(B) केवल 2 और 3

(C) केवल 3

(D) 1, 2 और 3

उत्तर- (A)

व्याख्या- पॉण्डिचेरी पर सबसे पहले पुर्तगालियों ने कब्जा किया था। वे भारत में व्यापार करने के लिए आए थे और उन्होंने यहां अपनी सत्ता स्थापित कर ली थी। वास्कोडिगामा ने यूरोप से भारत के लिए एक नया समुद्री मार्ग खोज निकाला था। वह 1498 में भारत के केरल तट पर कालीकट बंदरगाह पर पहुंचा था। कालीकट के हिंदू राजा, जिसे जमोरिन कहा जाता था, ने उसका स्वागत किया था। पुर्तगालियों का मसालों (विशेषकर काली मिर्च) के व्यापार पर एकाधिकार था। उन्होंने हिंद महासागर में महत्वपूर्ण स्थानों पर कब्जा कर लिया ताकि वे एशिया के तटवर्ती व्यापार पर नियंत्रण कर सकें। पांडिचेरी पर कब्जा करने के लिए डच दूसरी यूरोपीय शक्ति थी। अंग्रेजों ने 1793 में पांडिचेरी पर भी कब्जा कर लिया लेकिन पेरिस संधि के तहत इसे 1814 में फ्रांस में सौंप दिया

11. निम्नलिखित में से किस गवर्नर-जनरल ने भारत की प्रसंविदाबद्ध सिविल सेवा (कोवेनैन्टेड सिविल सर्विस ऑफ इण्डिया) का सृजन किया जो कालान्तर में भारतीय सिविल सेवा नाम से जानी गई?

(A) वारेन हेस्टिंग्ज (B) वेलेजली

(C) लॉर्ड कार्नवालिस (D) विलियम बैन्टिक

उत्तर-(C)

व्याख्या- लॉर्ड कार्नवालिस, जो भारत के गवर्नर-जनरल थे, ने भारत में एक नई तरह की सिविल सेवा की शुरुआत की, जिसे बाद में भारतीय सिविल सेवा (ICS) कहा गया। कार्नवालिस भारत में प्रशासनिक सुधारों के लिए प्रतिबद्ध थे। उन्होंने 1787 में जिला कलेक्टर को दीवानी अदालतों के दीवानी न्यायाधीश भी नियुक्त किया, और उन्हें सीमित मामलों में फौजदारी मामलों की सुनवाई का अधिकार भी दिया। 1790-92 में उन्होंने जिला फौजदारी अदालतों को समाप्त कर चार भ्रमणशील न्यायालयों की स्थापना की। 1793 में उन्होंने कर प्रशासन को न्याय प्रशासन से अलग कर दिया। उन्होंने दीवानी न्यायालयों के लिए जिला न्यायाधीशों की नियुक्ति की, और उन्हें फौजदारी और पुलिस के कार्य भी सौंपे। 1793 में उन्होंने सिविल सेवा (नागरिक सेवा) की शुरुआत की। उन्हें सिविल सेवा का जनक भी कहा जाता है।

12. स्वदेशी आन्दोलन के प्रारम्भ का तात्कालिक कारण क्या था?

(A) लॉर्ड कर्जन द्वारा किया गया बंगाल विभाजन

(B) लोकमान्य तिलक पर अधिरोपित 18 महीने के सख्त कारावास का दण्डादेश

(C) लाला लाजपत राय तथा अजीत सिंह की गिरफ्तारी व निर्वासन; तथा पंजाब कोलोनाइजेशन बिल का पारित किया जाना

(D) चापेकर बन्धुओं को मृत्यु दण्ड की सजा सुनाया जाना

उत्तर- (A)

व्याख्या-

- 1905 में, लॉर्ड कर्जन ने बंगाल को दो हिस्सों में बांट दिया। बंगाल भारत का सबसे बड़ा प्रांत था, और यह विभाजन लोगों के लिए बहुत दर्दनाक था। लोगों ने सोचा कि यह विभाजन उनकी संस्कृति और पहचान को तोड़ने के लिए किया गया है।
- इस विभाजन के खिलाफ लोगों ने विरोध प्रदर्शन किया। उन्होंने विदेशी सामानों का बहिष्कार किया और स्वदेशी सामानों का समर्थन किया। उन्होंने स्कूलों, अदालतों और सरकारी नौकरियों का भी बहिष्कार किया।
- स्वदेशी आंदोलन का नेतृत्व बाल गंगाधर तिलक, लाला लाजपत राय और अरबिंदो घोष जैसे नेताओं ने किया। इस आंदोलन ने भारतीय स्वतंत्रता आंदोलन को एक नई दिशा दी।

13. निम्नलिखित कथनों पर विचार कीजिए-

1. डॉ० राजेन्द्र प्रसाद ने महात्मा गाँधी को चम्पारन आने तथा कृषकों की समस्या की जाँच करने के लिए राजी किया।
2. चम्पारन जाँच में आचार्य जे०बी० कृपलानी महात्मा गाँधी के निकट सहयोगियों में से एक थे।

ऊपर दिए गए कथनों में से कौन-सा/से सही है/हैं ?

(A) केवल 1

(B) केवल 2

(C) 1 और 2 दोनों

(D) न तो 1 और न ही

उत्तर-(B)

व्याख्या-

- 1917 में, महात्मा गांधी बिहार के चम्पारन जिले गए। उन्होंने राजकुमार शुक्ल के निमंत्रण पर यह यात्रा की थी। चम्पारन में, गांधी जी ने स्थानीय किसानों की समस्याओं को समझने के लिए गांव-गांव घूमे। सरकार ने गांधी जी की बात को माना और एक आयोग का गठन किया। इस आयोग में गांधी जी भी शामिल थे। आयोग ने जांच के बाद पाया कि किसानों के साथ नाइंसाफी हो रही है। अंत में, बागान मालिकों को किसानों से अवैध वसूली का 25% वापस करना पड़ा। यह गांधी जी की पहली बड़ी जीत थी।
- 1917 में, महात्मा गांधी बिहार के चम्पारण जिले गए। चम्पारण में, उन्होंने ब्रजकिशोर प्रसाद, राजेन्द्र प्रसाद, महादेव देसाई, नरहरि पारिख, और जे.बी. कृपलानी जैसे सहयोगियों के साथ मिलकर किसानों की समस्याओं को समझा।

14. 1793 ई० में एक विनियम द्वारा जिला कलेक्टर को उसकी न्यायिक शक्तियों से वंचित कर दिया गया और केवल संग्राहक अभिकर्ता बना दिया गया। ऐसे विनियमन का कारण क्या था?

(A) लॉर्ड कार्नवालिस ने महसूस किया कि जिला कलेक्टर की राजस्व संग्रहण की दक्षता, अन्य कार्यों का बोझ न रहने से, बहुत अधिक बढ़ जाएगी

(B) लॉर्ड कार्नवालिस ने महसूस किया कि न्यायिक शक्ति अनिवार्य रूप से यूरोपियनों के हाथ में होनी चाहिए, जबकि जिलों में राजस्व संग्रहण का कार्य भारतीयों को सौंपा जा सकता है

(C) लॉर्ड कार्नवालिस जिला कलेक्टर में संकेन्द्रित इतनी विस्तृत शक्ति से सतर्क हो गया था और महसूस करता था कि एक व्यक्ति में इतनी परम शक्ति का होना अवांछनीय है।

(D) न्यायिक कार्य के लिए भारत का गहरा ज्ञान और कानून में अच्छा प्रशिक्षण होना आवश्यक था, और लॉर्ड कार्नवालिस महसूस करता था कि जिला कलेक्टर को केवल राजस्व संग्राहक होना चाहिए।

उत्तर-(C)

व्याख्या- 1793 में, ब्रिटिश सरकार ने एक कानून बनाया जिसने जिला कलेक्टरों को उनकी न्यायिक शक्तियों से वंचित कर दिया। इससे पहले, जिला कलेक्टर एक ही व्यक्ति थे जो कर वसूलने, न्याय करने और अन्य प्रशासनिक कार्यों के लिए जिम्मेदार थे। नए कानून के तहत, जिला कलेक्टर को केवल कर वसूलने के लिए जिम्मेदार बनाया गया। न्यायिक कार्यों के लिए, प्रत्येक जिले में एक जिला न्यायाधीश की नियुक्ति की गई। लॉर्ड कार्नवालिस जिला कलेक्टर में संकेन्द्रित इतनी विस्तृत शक्ति से सतर्क हो गया था और महसूस करता था कि एक व्यक्ति में इतनी परम शक्ति का होना अवांछनीय है।

15. निम्नलिखित कथनों पर विचार कीजिए—

1. 1936 ई० में हस्ताक्षरित 'बम्बई मेनिफेस्टो' प्रत्यक्ष रूप से समाजवादी आदर्शों के प्रतिपादन का विरोधी था ।
2. इसको समस्त भारत से वृहत व्यापारिक समुदाय का सहयोग मिला था।

उपरोक्त कथनों में से कौन-सा/से सही है/हैं ?

(A) केवल 1

(B) केवल 2

(C) 1 और 2 दोनों

(D) न तो 1 और न ही 2

उत्तर- (A)

व्याख्या- 1936 में, मुंबई के 21 व्यापारियों ने एक दस्तावेज़ पर हस्ताक्षर किए जिसे "बंबई मेनिफेस्टो" कहा जाता था। इस दस्तावेज़ में, व्यापारियों ने समाजवादी विचारधारा का विरोध किया, जो जवाहरलाल नेहरू की विचारधारा थी। नेहरू ने 1936 में भारतीय राष्ट्रीय कांग्रेस के लखनऊ अधिवेशन में समाजवादी विचारधारा को रखा था। कथन 1 सत्य है क्योंकि बंबई मेनिफेस्टो ने समाजवादी विचारधारा का विरोध किया। कथन 2 गलत है क्योंकि बंबई मेनिफेस्टो को पूरे भारत में व्यापारियों का समर्थन नहीं मिला।

16. भारत के एक क्षेत्र की निम्नलिखित विशेषताएँ हैं—

1. उष्ण और आर्द्र जलवायु
2. 200 सेमी वार्षिक वर्षा
3. 1100 मी तक की ऊँचाई के पहाड़ी ढाल
4. 15°C से 30°C तक वार्षिक ताप परिसर

निम्नलिखित उपजों में से कौन-सी एक उपज आप उपरोक्त वर्णित क्षेत्र में अत्यधिक सम्भाव्य पाएँगे ?

(A) सरसों (B) कपास
(C) काली मिर्च (D) वर्जिनिया तम्बाकू

उत्तर- (C)

व्याख्या- ऊपर बताई गई विशेषताओं वाला क्षेत्र काली मिर्च की खेती के लिए बहुत अच्छा है। काली मिर्च को उष्ण और आर्द्र जलवायु की जरूरत होती है। इसके लिए साल में 200 सेमी बारिश भी होती है। साथ ही, 1100 मीटर तक की ऊँचाई वाले पहाड़ी ढाल भी होते हैं। काली मिर्च की खेती के लिए वार्षिक तापमान 15 से 30 डिग्री सेल्सियस के बीच होना चाहिए। भारत के केरल राज्य में ये सभी विशेषताएँ पाई जाती हैं, इसलिए वहाँ काली मिर्च की खेती होती है।

17. भारत के खनिज संसाधनों के सन्दर्भ में, निम्नलिखित युग्मों पर विचार कीजिए—

खनिज	**90% प्राकृतिक स्रोत कहाँ हैं**
1. ताँबा	झारखण्ड
2. निकेल	उड़ीसा
3. टंग्स्टन	केरल

उपरोक्त युग्मों में से कौन-सा/से सही सुमेलित है/हैं ?

(A) केवल 1 और 2
(B) केवल 2
(C) केवल 1 और 3
(D) 1, 2 और 3

उत्तर- (A)

व्याख्या-

- **तांबा:** भारत में तांबा मुख्य रूप से झारखंड (44%) और राजस्थान (20%) में पाया जाता है।
- **निकेल:** भारत में निकल का सबसे बड़ा भंडार उड़ीसा राज्य के कटक, क्योंझर और मयूरभंज जिलों में है।
- **टंगस्टन:** भारत में टंगस्टन का सबसे बड़ा भंडार राजस्थान के डेगाना खनिज क्षेत्र में है।

18. भारत में, भूमि-उपयोग वर्गीकरण का सन्निकट निरूपण निम्नलिखित में से कौन-सा है?

(A) नेट बुवाई क्षेत्र 25%; वन 33%; अन्य क्षेत्र 42%
(B) नेट बुवाई क्षेत्र 58%; वन 17%; अन्य क्षेत्र 25%
(C) नेट बुवाई क्षेत्र 43%; वन 29%; अन्य क्षेत्र 28%
(D) नेट बुवाई क्षेत्र 47%; वन 23%; अन्य क्षेत्र 30%

उत्तर- (D)

व्याख्या- भारत में भूमि उपयोग वर्गीकरण का सन्निकट निरूपण विकल्प (d) है क्योंकि भारत में कुल भूमि का लगभग 46% कृषि योग्य है, जिसमें 46.1% नेट बुवाई क्षेत्र और शेष 9.9% चरागाह, बाग-बगीचे और अन्य कृषि भूमि शामिल है। भारत में कुल भूमि का लगभग 23% वन है। अन्य क्षेत्र 30% शेष भूमि का उपयोग आवास, उद्योग, परिवहन, खनन और अन्य उद्देश्यों के लिए किया जाता है।

19. निम्नलिखित युग्मों पर विचार कीजिए—

संरक्षित क्षेत्र		**जिसके लिए जाने जाते हैं।**
1. भितरकनिका, उड़ीसा	-	लवण जल मगर
2. मरुस्थल राष्ट्रीय उद्यान, राजस्थान	-	महान् भारतीय सारंग
3. एराविकुलम, केरल	-	हुलुक गिबन

उपरोक्त युग्मों में से कौन-सा/से सही सुमेलित है/हैं ?

(A) केवल 1
(B) केवल 1 और 2
(C) केवल 2
(D) 1, 2 और 3

उत्तर-(B)

व्याख्या - इन तीन संरक्षित क्षेत्रों में पाए जाने वाले जानवरों के बारे में सही मिलान निम्नलिखित है:

1. भितरकनिका राष्ट्रीय उद्यान, उड़ीसा :- लवण जल मगर
2. मरुस्थल राष्ट्रीय उद्यान, राजस्थान :- महान् भारतीय सारंग
3. एराविकुलम राष्ट्रीय उद्यान, असम :- हुलुक गिबन